LİMİT YAYINLARI

2022 YKS İSABET SORULAR

/ limityayinlari

www.limityayinlari.com.tr

Bir " LİMİT " klasiği

LİMİT YAYINLARI

2022 YKS

TYT

BENZER SORULAR

ÖSYM

TÜRKÇE

Füruzan'ın hikâyeciliğinde eleştirmenlerce zayıf bulunan yanlardan biri yeknesak karakter üretimidir. Her hikâyesinde belli çevrelerde karşılaşılabilecek birkaç tipi anlatması ve bunların dışına çıkmaması bu eleştiriye dayanak gösterilebilir.

Bu parçada altı çizili sözü anlamca karşılayabilecek bir kullanım aşağıdakilerin hangisinde vardır?

A) Bir yazarın eserlerindeki olağanüstü karakterleri beğenmişsek yazarın sonraki eserlerinde de aynı karakterleri arama eğilimine gireriz.

B) Eleştirmenin en büyük yetkinliği, sanat eserine dair teknik unsurları bilmekten de öte gerçek sanatı tanıyabilmesi ve tek anlamlılığa hapsolmamasıdır.

C) Eserlerinin geneline hâkim olan temalar, ilk başta tekdüzelik hissi oluştursa da bir araya geldiklerinde bir bütünün parçalarını andırır.

D) Deneme yazarları, hayal kurdukları için mi daha sonsuz bir evrene sahiptir yoksa öğrendiklerini özgün düşünce dünyalarına aktarabildikleri için mi?

E) Edebî eserdeki karakterin hayatın normal akışı içinde sıradan bir görüntüye bürünmesi yerine evrensel bir kimlikle donatılması onu belirli bir tip hâline getirir.

LİMİT YAYINLARI

KURUMSAL TYT DENEME SINAVI-1

Tarık Buğra hikâyelerinin şifası, insanı en ümitsiz olduğu anlarda derin hakikatlerle yüzleştirerek kendine dönüşü sağlayacak gücü insana vermesidir. Bununla birlikte hayatın rutin akışı içinde insanın her gün baktığı fakat görmediği durumları, kişileri, mekânları ve olayları onun zihinsel gözünü de açarak yeni bir nazarla keşfetmesini sağlar.

Bu parçadaki altı çizili sözcüğü anlamca karşılayabilecek bir kullanım aşağıdakilerin hangisinde vardır?

A) İnsanın kendisi olabilmesi, çoğu zaman, gündelik hayatın alışılagelmiş ve sıkıcı çarkı arasında pek de mümkün görünmemektedir.

B) İnsanoğlunun dille kurduğu ilişki basitten karmaşığa doğru seyreder.

C) İnsanın kurtuluşu, onun merak eden ve soru soran bir varlık olmasında yatmaktadır.

D) İnsanoğlu, tek başına düşünüldüğünde dahi her yeni güne sil baştan başlamaz.

E) Her millet; güven içinde yaşamak, içten veya dıştan gelecek tehlikelerden korunmak düşüncesiyle sınırlarını belirler.

Bir " LİMİT " klasiği

LİMİT YAYINLARI

2022 YKS

TYT

BENZER SORULAR

ÖSYM

TÜRKÇE

Ahmet Hamdi Tanpınar, ilk baskısı 1946'da yayımlanan *Beş Şehir* denemesinin asıl (I) konusunun hayatımızda kaybolan şeylerin ardından duyulan üzüntü ile yeniye karşı (II) beslenen özlem olduğunu söyler. Sadece milletlerin değil bireyin asıl manasını maziyle tanımlayabileceğini düşünen yazara göre mazi, daima (III) vardır. Kendimiz olabilmek için maziyle hesaplaşmaya mecburuz. İşte *Beş Şehir* böyle (IV) bir mecburiyetin sesidir.

Bu parçada numaralanmış sözcüklerin türü aşağıdakilerin hangisinde sırasıyla verilmiştir?

A) Sıfat - zarf - edat - zarf

B) Sıfat - edat - zarf - sıfat

C) İsim - edat - sıfat - zamir

D) İsim - zarf - zarf - edat

E) Zamir - sıfat - zarf - bağlaç

LİMİT YAYINLARI

TYT TÜRKÇE SORU BANKASI

Konya Karapınar ilçesinin güney kesiminde yer alan binlerce hektarlık bir alan Türkiye'nin tek (I) çölünü oluşturuyor. Çölün gizemi buzul çağına dek (II) uzanıyor. Buzul (III) çağında bölgede bulunan büyük bir gölden kalan mil ve tortuların rüzgârla taşınıp (IV) birikmesiyle kumul oluşuyor.

Bu parçada numaralanmış sözcüklerin türü aşağıdakilerin hangisinde sırasıyla verilmiştir?

	I	II	III	IV
A)	Sıfat	Bağlaç	Zarf	İsim
B)	İsim	Edat	Sıfat	Zarf
C)	Sıfat	Edat	İsim	Zarf
D)	İsim	Bağlaç	İsim	Sıfat
E)	Sıfat	Edat	Sıfat	Zarf

Bir “ LİMİT ” klasiği

LİMİT YAYINLARI

2022 YKS

TYT

BENZER SORULAR

ÖSYM

TÜRKÇE

Özellikle nezle veya grip olduğumuzda gündüz saatlerinde görece (genellikle) daha iyi hissederken gece olduğunda hastalık belirtilerini (göstergelerini) daha şiddetli hissederiz. Bunun nedeni, vücudun bağışıklık sisteminin belli bir düzen (uyum) içinde olmasıdır. Gün boyunca (süresince) vücudu savunan bağışıklık sistemi aktifken (çalışırken) geceleri dinlenmeye geçer ve hücresel savunma azalır.

I II III IV V

Bu parçada numaralanmış sözcüklerden hangisinin anlamı, ayraç içinde verilenle uyuşmamaktadır?

A) I B) II C) III D) IV E) V

LİMİT YAYINLARI

KURUMSAL TYT TÜRKÇE SORU BANKASI

Hikâyenin ağırlığı görece bir ağırlıktır ve bu ağırlık süse, imaja, izleğe, bir kelimeyle içeriğe dönüktür. Buna karşılık anlatıcının ağırlığı, yapıcı ve yönlendirici bir ağırlıktadır. Biçeme ve kurguya dayalı metinlerde anlatıcı önemlidir.

I II III IV V

Bu parçada numaralanmış sözcüklerin anlamıyla ilgili aşağıda verilenlerden hangisi yanlıştır?

A) I. sözcük, “kişiden kişiye değişen” anlamındadır.

B) II. sözcük, “yalın ve sade anlatımlı olan” anlamına gelmektedir.

C) III. sözcük, “asıl anlatılmak istenen, tema” anlamındadır.

D) IV. sözcük, “bir eserde anlatılanlar, konu” anlamındadır.

E) V. sözcük, “dil ve anlatım, üslup” anlamına gelmektedir.

Bir “ LİMİT ” klasiği

LİMİT YAYINLARI

2022 YKS

TYT

BENZER SORULAR

ÖSYM

TÜRKÇE

İri gövdesi güneşte devasa bir petek gibi ışıldayan palmiyenin yaprakları altında üç kadın oturuyor (I) Fatma Aliye, Halide Edip, Samiha Ayverdi (II) Uzaktan güçlükle işitebildiğim sesleri, vecd hâlinde kovanlarına girip çıkan bal arılarının seslerini andırıyor (III) Ne etrafta onları sezen bir baş var ne de onlarda etrafla ilgilenen bir telaş (IV) İki ayrı zaman, aynı tarihî konağın avlusunda akıyor biteviye (V)

Bu parçada numaralanmış yerlerden hangisine diğerlerinden farklı bir noktalama işareti getirilmelidir?

A) I B) II C) III D) IV E) V

Not: I numaralı yere iki nokta(:), diğerlerine nokta(.) getirilmelidir.

LİMİT YAYINLARI

TYT TÜRKÇE SORU BANKASI

Bizim yakın dönem edebiyatımızın belki de tek belirleyici kavramı vardır (I) modern (II) Hâl böyle olunca moderni bütün özellikleriyle tanımamız gerekir (III) Bu kavramın evrensel ve bizdeki katmanlarını enine boyuna bilmek zorundayız (IV) O da öncelikle 19. yüzyıl açılımlarını tanımamızı zorunlu kılıyor (V)

Bu parçadaki numaralı yerlerin hangisine ötekilerden farklı bir noktalama işareti getirilmelidir?

A) I B) II C) III D) IV E) V

Not: I numaralı yere iki nokta(:), diğerlerine nokta(.) getirilmelidir.

Bir " LİMİT " klasiği

LİMİT YAYINLARI

2022 YKS

TYT

BENZER SORULAR

ÖSYM

TÜRKÇE

XII. yüzyılda gözlüğün bulunması, sadece görme kusurlarını ---- kalmadı aynı zamanda insanların doğuştan getirdiği ya da zamanla oluşan tahribatları ---- gerektiği inancını da yıktı.

Bu cümlede boş bırakılan yerlere aşağıdakilerden hangisi sırasıyla getirilmelidir?

A) gidermekle - kabullenmeleri

B) somutlaştırmakla - onaylamaları

C) görmezden gelmekle - benimsemeleri

D) aramakla - düzeltmeleri

E) ortaya koymakla - iyileştirmeleri

LİMİT YAYINLARI

TYT TÜRKÇE SORU BANKASI

1990'ların ortalarından ---- soya dayalı yöntemlerin kullanılmaya ---- büyük bir ilerleme sağlanmıştır. Daha 1980'lerde tüm insanlarda bulunan mitokondriyal DNA'nın -hücre çekirdeğinde değil de mitokondria olarak ---- küçük hücre parçacığında bulunan DNA'nın- anneden miras alındığı anlaşılmıştır.

Bu parçada boş bırakılan yerlere sırasıyla aşağıdakilerden hangisi getirilmelidir?

A) itibaren - başlanmasıyla - adlandırılan

B) sonra - öngörülmesiyle - belirtilen

C) beri - çalışılmasıyla - söylenen

D) başlayan - hazırlanmasıyla - önemsenen

E) önce - odaklanılmasıyla - tanımlanan

Bir " LİMİT " klasiği

LİMİT YAYINLARI

2022 YKS

TYT

BENZER SORULAR

ÖSYM

TÜRKÇE

Sorular ÖSYM'nin yayınlanmamış kurulus kaynaklarından kullanılmıştır.

Füruzan'ın hikâyeciliğinde eleştirmenlerce zayıf bulunan yanlardan biri yeknesak karakter üretimidir. Her hikâyesinde belli çevrelerde karşılaşılabilecek birkaç tipi anlatması ve bunların dışına çıkmaması bu eleştiriye dayanak gösterilebilir.

Bu parçada altı çizili sözü anlamca karşılayabilecek bir kullanım aşağıdakilerin hangisinde vardır?

A) Bir yazarın eserlerindeki olağanüstü karakterleri beğenmişsek yazarın sonraki eserlerinde de aynı karakterleri arama eğilimine gireriz.

B) Eleştirmenin en büyük yetkinliği, sanat eserine dair teknik unsurları bilmekten de öte gerçek sanatı tanıyabilmesi ve tek anlamlılığa hapsolmamasıdır.

C) Eserlerinin geneline hâkim olan temalar, ilk başta tekdüzelik hissi oluştursa da bir araya geldiklerinde bir bütünün parçalarını andırır.

D) Deneme yazarları, hayal kurdukları için mi daha sonsuz bir evrene sahiptir yoksa öğrendiklerini özgün düşünce dünyalarına aktarabildikleri için mi?

E) Edebî eserdeki karakterin hayatın normal akışı içinde sıradan bir görüntüye bürünmesi yerine evrensel bir kimlikle donatılması onu belirli bir tip hâline getirir.

LİMİT YAYINLARI

TYT TÜRKÇE SORU BANKASI

Charles Latimer, bir İngiliz üniversitesinde politik ekonomi dersleri verirken monotonlaşan hayatına biraz renk katmak için ilk polisiye romanını yazar. Beklemediği olumlu tepkilerle karşılaşınca bunu diğer romanlar izler ve kısa sürede kendini profesyonel bir yazar olarak bulur.

Bu cümledeki altı çizili sözü anlamca karşılayabilecek bir kullanım aşağıdakilerin hangisinde vardır?

A) Abdülhak Şinasi Hisar; *Fahim Bey ve Biz, Çamlıca'daki Eniştemiz, Ali Nizami Bey'in Alafrangalığı ve Şeyhliği* adlı romanlarında farklı bir anlatım benimsemiştir.

B) Toplumcu gerçekçi yazarlar arasında yer alan Talip Apaydın, Fakir Baykurt, Dursun Akçam; romanlarında ve hikâyelerinde belirli konuları tekdüze bir üslup içinde ele almışlardır.

C) Yeni aldıkları ev şehre uzak ama tabiatıyla insana huzur veren bir özelliğe sahip, ayrıca başarılı bir mimari ile yapılmıştı.

D) Birçok ünlünün katıldığı davet, şatafatlı kıyafetleriyle katılan kişilerin yerine sade kıyafetiyle katılan ünlü iş insanı dikkatleri üzerine çekti.

E) Resimlerindeki derinlik, sanatçının benimsediği empresyonizm akımının ilkelerinin uygulanmasından gelmektedir.

Bir " LİMİT " klasiği

LİMİT YAYINLARI

2022 YKS

TYT

BENZER SORULAR

ÖSYM

TÜRKÇE

I. Roket kullanmadan uzay deneyimi yaşamak isteyen Eustace, basınçlı bir uzay kıyafeti giymişti ve ince bir polietilen balonun altına asılıydı.

II. İlkin gevşek bir dörtgen hâlinde göğe doğru yükseldi sonra pürüzsüz ve şişkin bir damla biçimi aldı.

III. Eustace hedefine yani gezegen yüzeyinden 25 mil yüksekliğe ulaştığında ise balon; futbol stadı büyüklüğünde, ışıl ışıl parlayan, kusursuz bir küreye dönüştü.

IV. Balon göğe sorunsuzca yükselirken içindeki helyum gazı genişlemeye başladı ve kat ettiği her mesafede balonun şekli değişti.

V. Geçtiğimiz ay 57 yaşındaki Alan Eustace, kayış gıcırtısı dışında hiçbir ses çıkarmadan New Mexico Çölü'nden gökyüzüne doğru hareket etti.

Yukarıda numaralanmış cümleler anlamlı bir bütün oluşturacak biçimde sıralandığında hangisi baştan üçüncü olur?

A) I B) II C) III D) IV E) V

izni olmaksızın

LİMİT YAYINLARI

KURUMSAL TYT DENEME SINAVI-7

I. Floransalı bir yazarın *Novellino* adlı, zayıf bir dille yazdığı yüz öyküyü içeren bir eseri de vardır.

II. İtalya'da, masallardan doğup birkaç sayfadan oluşan, orta sınıf halkın hayatını konu alarak çok rağbet gören, adına nouvella denilen mensur bir türün varlığı bilinmektedir.

III. Bu eser, Floransa'da veba salgınından kaçan asilzade üç gencin ve bir kadının günde birer öykü anlatmasıyla toplam yüz öyküden oluşmuştur.

IV. Batı'da, geçmişte yerini destanların tuttuğu öykü türü gece anlatılan masallardan doğmuştur.

V. Batı'nın ilk yetkin öyküsü ise Boccaccio'nun *Decameron* adlı eseridir.

Yukarıda numaralanmış cümleler anlamlı bir bütün oluşturacak biçimde sıralandığında hangisi baştan dördüncü olur?

A) I B) II C) III D) IV E) V

Bir " LİMİT " klasiği

LİMİT YAYINLARI

2022 YKS

TYT

BENZER SORULAR

ÖSYM

TÜRKÇE

Pascal, insanların genellikle kendini tanımaya zaman harcamadığını ve kendi müşkül durumlarıyla yüzleşmekten kaçabilme umuduyla daima koşturduğunu ileri sürer. İnsanların bu "mutluluk arayışı oyunu" varmak değil, koşmak olarak nitelendirilebilir. Oysa koşmak sadece zihinleri dağıtmanın bir yoludur; koşturup dururken düşünceye yer kalmadığından zihin hakikate yüz çevirir, onu görmeyi erteler. Mutsuzluğun asıl nedeni, insanın kendi kendine odasında kalıp sessizce oturmayı bilememesidir. İnsanlar, sonu hiçbir yere varmayan aynı parkurda koşmaya devam eder. Böylece kendine yakından bakma görevinin ağır yükünden kaçar ve kendini acı bir uyanışa mahkûm ederek mutluluğa ulaşma arzusuyla başladığı noktaya her defasında geri döner. Koşmanın cazibesine kapılmıştır ama elde ettiğini sandığı mutluluk gerçek değildir.

Bu parçaya göre "mutluluk arayışı oyunu oynayan insanlar**"la ilgili aşağıdakilerden hangisi söylenemez?**

A) Gerçek mutluluğa ulaşmada zorlandıkları

B) Sürekli bir arayış içinde oldukları

C) Kısır bir döngüde hapsoldukları

D) Kendilerini tanımaktan kaçındıkları

E) Beklentilerini keşfetmek için çabaladıkları

LİMİT YAYINLARI

KURUMSAL TYT DENEME SINAVI-1

Kendini gerçekleştirme, bireyin mevcut özelliklerini ve potansiyellerini en iyi şekilde kullanabilmesi demektir. Kendini gerçekleştiren kişi, en mükemmel özelliklere sahip kişi değil; kendini tüm özellikleri ile kabul eden ve isteklerinin farkında olan kişidir. "Kendini gerçekleştirme" kavramı ilk olarak Gestalt psikolojisinin kavramlarını bir adım ileriye götüren Goldstein tarafından ortaya atılmıştır. Beyin hasarlı kişilerle çalışmalar yapan Goldstein bütüncül bakış açısını geliştirmiştir. Onun bu görüşü "Organizmik Kuram" olarak bilinmektedir. Goldstein, bu kavramı kişinin var olan potansiyelini en iyi şekilde ortaya koyma isteği ve eğilimi olarak tanımlamıştır.

Bu parçaya göre kendini gerçekleştiren bireylerle ilgili aşağıdakilerden hangisi söylenemez?

A) Gerçeği doğru ve tam olarak algılar.

B) Kendini olduğu gibi kabul eder.

C) Kendini üst düzeyde geliştirme isteği taşır.

D) Problemleri çözmede başarı gösterir.

E) Neyi istediğini ve hedeflediğini bilir.

Bir " LİMİT " klasiği

LİMİT YAYINLARI

2022 YKS

TYT

BENZER SORULAR

ÖSYM

TÜRKÇE

aittir. Benzer Sorular Ö
eya kurulus tarafında

8. Trenin son vagonuna gelene kadar bir sonraki vagonda nelerle karşılaşılacağı ile ilgili merak ve beklentiler yaşamın sürükleyici güçlerindendir; tıpkı heyecanlı bir film izlemek gibi. Son vagon, yolculuğa dair beklentilerin de sonudur; heyecan diner ve deneyimlenmemiş duygulardan uzaklaşılır.

Bu parçada aşağıdaki durum eklerinden hangisi yoktur?

A) İlgi B) Ayrılma C) Yönelme

D) Bulunma E) Belirtme

LİMİT YAYINLARI

TYT TÜRKÇE SORU BANKASI

Ülkemizde yeni yetişen kuşakların ana dillerine saygı duymalarını, özen göstermelerini sağlayacak eğitim ve öğretim olanaklarını ve koşullarını oluşturmadaki en büyük görev öğretmenlere düşmektedir.

Bu cümlede aşağıdakilerden hangisine örnek yoktur?

A) Yalın duruma

B) Belirtme durumuna

C) Yaklaşma durumuna

D) Ayrılma durumuna

E) Bulunma durumuna

Bir " LİMİT " klasiği

LİMİT YAYINLARI

2022 YKS

TYT

BENZER SORULAR

ÖSYM

TÜRKÇE

Vücudumuzdaki proteinlerin üçte birini oluşturan kolajen ----.

Bu cümle aşağıdakilerden hangisiyle tamamlanırsa öge dizilişi "özne - zarf tümleci - belirtisiz nesne - yüklem" **şeklinde olur?**

A) aynı zamanda bilinen en sağlam malzemelerden biridir

B) başta kemik ve deri olmak üzere tüm dokularda bulunur

C) genç ve pürüzsüz bir cilde sahip olmamıza yardımcı olur

D) bulunduğu dokudaki işlevine göre karmaşık yapılar ortaya çıkarır

E) hayli uzun ömürlü olmakla birlikte belli bir yaşam süresine sahiptir

Bu soruların telif hakları ÖSYM'
Hiçbir kişi, kuru

LİMİT YAYINLARI

TYT TÜRKÇE SORU BANKASI

"Gerçeği arayan şair, ----." **sözü aşağıdakilerden hangisi ile tamamlanırsa cümlenin ögeleri** "özne, dolaylı tümleç, nesne ve yüklem" **şeklinde olur?**

A) her şiirinde farklı bir konuyu işlemelidir

B) özgün olmaktan ve farklı düşünmekten korkmamalıdır

C) başka türlerin imkânlarından olabildiğince yararlanmalıdır

D) bireysel konuları değil toplumsal konuları ele almalıdır

E) duyguya değil düşünceye ağırlık vermelidir

Bir “ LİMİT ” klasiği

LİMİT YAYINLARI

2022 YKS

TYT

BENZER SORULAR

ÖSYM

TÜRKÇE

- Kendinden sonraki cümleye bağlı olarak ret, kabul, teşvik bildiren kelimelerden sonra konur.
- Tırnak içinde olmayan alıntı cümlelerden sonra konur.
- Anlamı güçlendirmek için tekrarlanan kelimeler arasına konur.
- Metin içinde art arda gelen zarf-fiil eki almış kelimelerden sonra konur.

Aşağıdaki cümlelerin hangisi, virgülün kullanımıyla ilgili bu bilgilerden birine örnek gösterilemez?

A) Benim de söyleyeceklerim vardı elbet sana ama gözlerine bakmakla yetinmeyi bildim, dedi usulca.

B) Haydi, biraz da sen tutun rengârenk kanatlı yaban kuşlarının çıkardığı umut rüzgârına.

C) Hayatta neyin önemli olduğunu anlamak için arkama dönüp bakıyorum ki iyilik, iyilik, hep iyilik.

D) O, bundan yıllar önce her şeyi arkasında bırakıp yeni bir şehre taşındığında kalbindeki aşkı da yitirmişti.

E) İnsan kendini sevip, yaptığı hatalardan ders çıkardıkça içindeki olgunlaşma hissi de tüm benliğini kaplar.

LİMİT YAYINLARI

TYT TÜRKÇE SORU BANKASI

Sonunda, 1948’e doğru, Adana’da bir iş bulabildi Orhan Kemal. Verem Savaş Derneğinde bir kâtiplik verildi ona. Hem kâtiplik hem tahsildarlık bir dairede ne iş varsa hepsini Orhan görüyor, karşılığında 120 lira alıyordu. Buradan aldığı paraları biriktirip, bu parayla ailesini geçindirip kendince bir hayat kurmayı arzu ediyordu. Daha sonra roman, hikâye, tiyatro ve senaryolar yazdı Orhan.

Bu parçada virgülün aşağıdaki işlevlerinden hangisinin kullanımı yoktur?

A) Birbiri ardınca sıralanan eş görevli kelime gruplarının arasına konur.

B) Cümle içindeki ara sözleri ayırmak için ara sözlerin başına ve sonuna konur.

C) Metin içinde art arda gelen zarf-fiil eki almış kelimelerden sonra konur.

D) Uzun cümlelerde yüklemden uzak düşmüş olan özneyi belirtmek için konur.

E) Sıralı cümleleri birbirinden ayırmak için konur.

Bir “ LİMİT ” klasiği

LİMİT YAYINLARI

2022 YKS

AYT

BENZER SORULAR

ÖSYM

TÜRK DİLİ VE EDEBİYATI-SOSYAL BİLİMLER - 1

I.
Gelen aynı Sümmani'nin başına
Sen de kavrulmuşsun aşk ataşına
Sevda temrenini mermer taşına
Sen de benim gibi vurabildin mi

II.
Karacoğlan söyler sözün başarır
Aşkın deryasını boydan aşırır
Seni her mecliste hacil düşürür
Kötülerle konup göçücü olma

Aşağıdakilerden hangisi bu dörtlüklerin ortak özelliklerinden biri <u>değildir</u>?

A) Ait oldukları şiirin son dörtlüğü olma

B) Aynı kafiye düzenine sahip olma

C) Güzelleme türünde yazılmış olma

D) Mecazlı bir anlatıma sahip olma

E) 11'li hece ölçüsüyle yazılmış olma

yazılı izni olmaksı
lamaz.

LİMİT YAYINLARI

AYT EDEBİYAT SORU BANKASI

El ariftir yoklar senin bendini
Dağıtırlar tuzağını fendini
Alçaklarda otur gözet kendini
Kati yükseklerden uçucu olma

Karac'oğlan söyler sözün başarır
Aşkın deryasını boydan aşırır
Seni her mecliste küçük düşürür
Kötülerle konup göçücü olma.

Bu dörtlüklerle ilgili olarak aşağıdakilerden hangisi <u>söylenemez</u>?

A) Hangi sanatçıya ait olduğu son dörtlükten anlaşılmaktadır.

B) Semai nazım biçimiyle yazılan bir şiirden alınmıştır.

C) Kafiye ve redife yer verilmiştir.

D) On birli hece ölçüsü kullanılmıştır.

E) Didaktik şiirin özellikleri ağır basmaktadır.

Not: Âşık edebiyatında didaktik şiir özelliği gösteren şiirlere "öğütleme" adı verilir. Bu şiirler "güzelleme" türünden tamamen farklıdır.

Bir “ LİMİT ” klasiği

LİMİT YAYINLARI

2022 YKS

AYT

BENZER SORULAR

ÖSYM

TÜRK DİLİ VE EDEBİYATI-SOSYAL BİLİMLER - 1

I.
Beni ağlan beni kim üstüme gelmez ölicek
Bir avuç toprak atar bâd-ı sabâdan gayrı
(Necati)

II.
Ne yanar kimse bana âteş-i dilden özge
Ne açar kimse kapum bâd-ı sabâdan gayrı
(Fuzuli)

Bu beyitlerle ilgili aşağıdakilerden hangisi söylenemez?

A) İki beyitte de yalnızlık teması işlenmiştir.

B) İki beyitte de sabah rüzgârı, vefalı bir dost olarak gösterilmiştir.

C) İkinci beyitte tevriye sanatına yer verilmiştir.

D) İki beytin de kafiye düzeni aynıdır.

E) Birinci beyitte teşhis sanatına başvurulmuştur.

LİMİT YAYINLARI

AYT EDEBİYAT SORU BANKASI

Hâsılım yoh ser-i kûyunda beladan gayrı
Garazım yoh reh-i aşkında fenadan gayrı
...
Ne yanar kimse mana âteş-i dilden özge
Ne açar kimse kapım bâd-ı sâdâdan gayrı
...
Bezm-i aşk içre Fuzûlî nice âh eylemeyem
Ne temettü bulunur neyde sadâdan gayrı

Bu dizelerin biçim ve içerik özellikleri dikkate alındığında aşağıdakilerden hangisi söylenemez?

A) Bir gazelden alınmıştır.

B) Matla ve makta beyitlerine yer verilmiştir.

C) Bir kasidenin fahriye bölümünden alınmıştır.

D) Arapça, Farsça, sözcük ve tamlamalara yer verilmiştir.

E) Redif ve uyağa yer verilmiştir.

Ne yanar kimse bana ateş-i dilden özge
Ne açar kimse kapım bad-ı sabadan gayrı

Bu beyitte aşağıdaki konulardan hangisi ağır basmaktadır?

A) Yalnızlık B) Sevgi C) Ölüm D) Yaşlılık E) Bencillik

Bir “ LİMİT ” klasiği

LİMİT YAYINLARI

2022 YKS

AYT

BENZER SORULAR

ÖSYM

TÜRK DİLİ VE EDEBİYATI-SOSYAL BİLİMLER - 1

I.
Beni ağlan beni kim üstüme gelmez ölicek
Bir avuç toprak atar bâd-ı sabâdan gayrı
(Necati)

II.
Ne yanar kimse bana âteş-i dilden özge
Ne açar kimse kapum bâd-ı sabâdan gayrı
(Fuzuli)

Bu beyitlerle ilgili aşağıdakilerden hangisi söylenemez?

A) İki beyitte de yalnızlık teması işlenmiştir.

B) İki beyitte de sabah rüzgârı, vefalı bir dost olarak gösterilmiştir.

C) İkinci beyitte tevriye sanatına yer verilmiştir.

D) İki beytin de kafiye düzeni aynıdır.

E) Birinci beyitte teşhis sanatına başvurulmuştur.

LİMİT YAYINLARI

AYT EDEBİYAT SORU BANKASI

I. Aşk derdiyle hoşem el çek ilacımdan tabip
Kılma derman kim helakim zehri dermanındadır.

II. El çek tabip el çek yaram üstünden
Sen benim derdime deva bilmezsin

Birincisi Fuzûlî'den ikincisi Erzurumlu Emrah'tan alınan bu dizeler için aşağıdakilerden hangisi söylenemez?

A) Birincisi divan, ikincisi halk şiirinden alınmıştır.

B) Her ikisinde de aynı konu işlenmiştir.

C) Her ikisi de aynı ölçüyle yazılmıştır.

D) Her ikisi de sade ve anlaşılır bir dille oluşturulmuştur.

E) Birincisi gazelden, ikincisi bir koşmadan alınmıştır.

Bir " LİMİT " klasiği

LİMİT YAYINLARI

2022 YKS

AYT

BENZER SORULAR

ÖSYM

TÜRK DİLİ VE EDEBİYATI-SOSYAL BİLİMLER - 1

I.
Beni ağlan beni kim üstüme gelmez ölicek
Bir avuç toprak atar bâd-ı sabâdan gayrı
(Necati)

II.
Ne yanar kimse bana âteş-i dilden özge
Ne açar kimse kapum bâd-ı sabâdan gayrı
(Fuzuli)

Bu beyitlerle ilgili aşağıdakilerden hangisi söylenemez?

A) İki beyitte de yalnızlık teması işlenmiştir.

B) İki beyitte de sabah rüzgârı, vefalı bir dost olarak gösterilmiştir.

C) İkinci beyitte tevriye sanatına yer verilmiştir.

D) İki beytin de kafiye düzeni aynıdır.

E) Birinci beyitte teşhis sanatına başvurulmuştur.

LİMİT YAYINLARI

AYT TÜRKİYE GENELİ DENEME SINAVI-2

I. Beni ağlan beni kim üstüme gelmez ölicek
Bir avuç toprağ atar bâd-ı sabâdan gayrı

II. Ne yanar kimse bana âteş-i dilden özge
Ne açar kimse kapum bâd-ı sabâdan gayrı

III. Kim düşer dâmenüme katre-i hûndan gayrı
Kim öper pâyumı zencîr-i cünûndan gayrı

(**bâd-ı sabâ:** seher yeli, **katre-i hûn:** kan damlası, **pâ:** ayak, **zencîr-i cünun:** deli zinciri)

Aşağıdakilerden hangisi numaralanmış bu beyitlerin ortak özelliğidir?

A) Mahlas beyti olmaları

B) Aynı temayı ele almaları

C) Rediften yararlanılarak kaleme alınmaları

D) Matla beyti olmaları

E) Zengin kafiyeye yer verilerek oluşturulmuş olmaları

Bir " LİMİT " klasiği

LİMİT YAYINLARI

2022 YKS

AYT

BENZER SORULAR

ÖSYM

TÜRK DİLİ VE EDEBİYATI-SOSYAL BİLİMLER - 1

XX. yüzyılın toplumlarda yarattığı travma ve güvensizlik hislerinin bir neticesi olarak ortaya çıkan bu akım, aklı reddederek hayal ve ötesini işlemeyi amaçlar. Sanatın pek çok alanında özellikle şiirde etkili olan bu akımın savunucularına göre akıl yoluyla kurulmuş sistemler ve düşünce biçimleriyle, bilinçaltının ortaya çıkması mümkün değildir. Bu yüzden akıl perdelemesinden kurtulup içinden geldiği gibi anlatmak, her türlü estetik ve ahlaki kaygıdan sıyrılıp düşüncelerini sağaltmak bu akımı benimseyen sanatçıların en önemli dayanağıdır. Sanatçılar bunu yaparken de rüyanın gücünden, daha önce ihmal edilen çağrışım biçimleri ve çıkarsız düşünceden yararlanarak tarif edilmesi ve anlaşılması zor imge, dil ve biçimlere başvurur.

Bu parçada söz edilen edebî akım aşağıdakilerden hangisidir?

A) Egzistansiyalizm B) Dadaizm

C) Sembolizm D) Sürrealizm

E) Empresyonizm

izni olmaksızın

LİMİT YAYINLARI

AYT EDEBİYAT SORU BANKASI

3. Bu akımın temsilcileri, bilinçaltının karmaşık dünyasını sanata aktarmayı amaçlar. Bunun aktarılmasında Freud'un psikanaliz kuramından geniş ölçüde etkilenmiş ve yararlanılmıştır. Düşüncenin gerçek faaliyetini yakalamak için hipnotizma seansları düzenlemişler, bu seanslarda ortaya çıkan düşünceleri dergilerde yayımlamışlardır.

Bu parçada aşağıdaki edebiyat akımlarından hangisinin temsilcilerinden söz edilmektedir?

A) Sembolizm B) Egzistansiyalizm C) Parnasizm

D) Empresyonizm E) Sürrealizm

Bir “ LİMİT ” klasiği

LİMİT YAYINLARI

2022 YKS

AYT

BENZER SORULAR

ÖSYM

TÜRK DİLİ VE EDEBİYATI-SOSYAL BİLİMLER - 1

Aşağıdakilerin hangisinde bir varlık veya durum, olduğundan az veya çok gösterilmemiştir?

A) Bâğ-ı cennetdür yüzün gûyâ dehânun selsebîl
Ka'bedür gûyâ cemâlün nûrıdur rûşen delîl

B) Seyl-i firâk gönlüm evin durmayup yıkar
Dünyâya gözlerüm yaşı deryâ olup akar

C) Göklere irişdi feryâd ile efgânum meded
Kuluna zulm eyleme devletlü sultânum meded

D) Kul itdün kâinâtı kendüne sultân-ı âlemsin
Güzellerde nazîrün yok perî-veş şekl-i âdemsin

E) Bu hicrânı işitsün ağlasun derd ehli âh itsün
Sen olmayınca sohbetde gözüm kime nigâh itsün

Telif hakları ÖSYM'ye ait. Bir kişi, kurum

LİMİT YAYINLARI

AYT EDEBİYAT SORU BANKASI

Aşağıdaki dizelerin hangisinde özellikle bir “abartma” **söz konusudur?**

A) Gözlerimden göğüme sayısız yıldız akar
Bir gülüşün içimde binlerce lamba yakar

B) Gurbetten gelmişim, yorgunum hancı
Şuraya bir yatak ser yavaş yavaş

C) Saçlar ağardı, sanma ki yaşlanmışız gülüm
Vallahi neyse sendeki hoşlanmışız gülüm

D) Bağlarda bahçelerde geçen tatlı günleri
Hatırda kalan anlarını silmek kolay değil

E) Bir bahar şarkısı ahengini vermiş sesine
Saçların rüzgâra başkaldırıyor öylesine

Bir " LİMİT " klasiği

LİMİT YAYINLARI

2022 YKS

AYT

BENZER SORULAR

ÖSYM

TÜRK DİLİ VE EDEBİYATI-SOSYAL BİLİMLER - 1

Türk edebiyatında ordunun akınlarını, savaşlarını, kahramanlıklarını, zaferlerini; manzum ve mensur biçimde anlatan eserlere verilen addır. Belli bir döneme ilişkin olayları ayrıntılı biçimde anlattıkları için tarihsel önem taşıyan bu eserler, tarihçilerin çalışmalarına da ışık tutmuştur.

Bu parçada söz edilen tür aşağıdakilerden hangisidir?

A) Gazavatname
B) Menakıbname
C) Seyahatname
D) İskendername
E) Sefaretname

Sorular ÖSYM'nin yazılı izni olmaksızın ticaretinden kullanılamaz.

LİMİT YAYINLARI

AYT EDEBİYAT SORU BANKASI

Gehî gavs-i guzahtan tir atalım
Gehî şemşir ü geh nize tutalım

Kılıçlar her yana olsun gülefşân
Müzeyyen bağa dönsün sahn-ı meydan

Ere meydandan özge gülşen olmaz
Kılıçtan hub berg-i sûsen olmaz

İçerik özelliklerinden hareketle bu beyitlerin aşağıdaki metin türlerinin hangisinden alındığı söylenebilir?

A) Gazavatname
B) Seyahatname
C) Sefaretname
D) Kıyafetname
E) Şehrengiz

Bir “ LİMİT ” klasiği

LİMİT YAYINLARI

2022 YKS

AYT

BENZER SORULAR

ÖSYM

TÜRK DİLİ VE EDEBİYATI-SOSYAL BİLİMLER - 1

“Gölgesinde Oturduğum Ağaç ve Ben” adlı ilk şiiri, 1921’de *Dergâh*’ta yayımlanır. Başlangıçta romantizm, aşk, ölüm, yalnızlık, hüzün gibi bireysel temaları işleyen şair; halk kültürünün zengin kaynaklarıyla tanıştıktan sonra ülke ve toplum sorunlarına yönelir. Geleneksel Türk tiyatrosundan etkilenerek yazdığı *Köşebaşı* ve mensur destan-piyes şeklindeki *Koçyiğit Köroğlu* adlı eserleriyle de tanınır.

Bu parçada söz edilen sanatçı aşağıdakilerden hangisidir?

A) Behçet Kemal Çağlar

B) Ahmet Kutsi Tecer

C) Kemalettin Kamu

D) Necati Cumalı

E) Bedri Rahmi Eyuboğlu

LİMİT YAYINLARI

AYT EDEBİYAT SORU BANKASI

Âşık Veysel’i (I) tanıtan ve Türk Edebiyatı’na kazandıran Ahmet Kutsi Tecer, (II) şiirin (III) yanı sıra *Koçyiğit Köroğlu* (IV) adlı destansı romanıyla (V) tanınmıştır.

Bu cümledeki altı çizili bölümlerden hangisi bilgi yanlışına yol açmıştır?

A) I B) II C) III D) IV E) V

Bir " LİMİT " klasiği

LİMİT YAYINLARI

2022 YKS

AYT

BENZER SORULAR

ÖSYM

TÜRK DİLİ VE EDEBİYATI-SOSYAL BİLİMLER - 1

Adalet Ağaoğlu, romanlarının gölgesinde kalan oyunları ve öyküleriyle modern Türk anlatısının en önemli isimlerindendir. Aslında sadece diğer türlerde yazdıkları değil, kimi zaman çok iyi romanları da başka romanlarının gölgesinde kalmıştır. Bugün herkes onu Türkiye'nin yakın tarihine aydının ve kadının gözünden bakan *Dar Zamanlar Üçlemesi*'nin yazarı olarak bilir oysa aynı olayı pek çok farklı kişinin bakışından tekrar tekrar anlattığı romanı *Üç Beş Kişi* veya bir gurbetçinin Almanya'dan köyüne otomobiliyle dönüşünü anlatan *Fikrimin İnce Gülü* romanı da çok iyi anlatılardır. Bence bu iki roman, üçlemedeki kitaplar kadar, mesela *Bir Düğün Gecesi* veya ---- kadar önemlidir, başarılıdır.

Bu parçada boş bırakılan yere aşağıdakilerden hangisi getirilmelidir?

A) *Yaşamın Ucuna Yolculuk*

B) *Korsan Çıkmazı*

C) *Yenişehir'de Bir Öğle Vakti*

D) *Ölmeye Yatmak*

E) *Sevgili Arsız Ölüm*

ÖSYM soruların telif hakları ÖSYM'
hiçbir kişi, kurum

LİMİT YAYINLARI

AYT EDEBİYAT SORU BANKASI

Aşağıdakilerin hangisinde verilen yapıtlar ayraç içindeki sanatçıya ait <u>değildir</u>?

A) *Benim Adım Kırmızı – Kara Kitap* (Ferit Edgü)

B) *Ölmeye Yatmak – Fikrimin İnce Gülü* (Adalet Ağaoğlu)

C) *Suyu Arayan Adam – Tek Adam* (Şevket Süreyya Aydemir)

D) *Boş Beşik – Nalınlar* (Necati Cumalı)

E) *Şimdiki Çocuklar Harika – Zübük* (Aziz Nesin)

Bir “ LİMİT ” klasiği

LİMİT YAYINLARI

2022 YKS

AYT

BENZER SORULAR

ÖSYM

TÜRK DİLİ VE EDEBİYATI-SOSYAL BİLİMLER - 1

“Gölgesinde Oturduğum Ağaç ve Ben” adlı ilk şiiri, 1921’de *Dergâh*’ta yayımlanır. Başlangıçta romantizm, aşk, ölüm, yalnızlık, hüzün gibi bireysel temaları işleyen şair; halk kültürünün zengin kaynaklarıyla tanıştıktan sonra ülke ve toplum sorunlarına yönelir. Geleneksel Türk tiyatrosundan etkilenerek yazdığı *Köşebaşı* ve mensur destan-piyes şeklindeki *Koçyiğit Köroğlu* adlı eserleriyle de tanınır.

Bu parçada söz edilen sanatçı aşağıdakilerden hangisidir?

A) Behçet Kemal Çağlar

B) Ahmet Kutsi Tecer

C) Kemalettin Kamu

D) Necati Cumalı

E) Bedri Rahmi Eyuboğlu

LİMİT YAYINLARI

KURUMSAL AYT DENEME SINAVI

- Yazarın *Yazılan Bozulmaz* adlı küçük tragedya denemesi, köy insanının kader karşısındaki mutlak teslimiyeti temasını sahneye taşır.
- Yirmi dört saatlik bir hayat dilimini anlatan *Köşebaşı*’ndaki olaylar, İstanbul’un eski zaman mahallerinden biri olan Rüstempaşa’da geçmektedir.
- *Koçyiğit Köroğlu* piyesi, bütün Türk dünyası için çok önemli olan bir halk kahramanına bilinen kimliğinin dışında farklı bir rol yüklemesi yönüyle, alışılmışın dışında bir “Köroğlu” tipini karşımıza çıkarır.
- 1961’de sahnelenen *Satılık Ev* adlı oyunu özellikle roman dünyamızda sıkça işlenen “yanlış Batılılaşma” konusunun sahnedeki ilk ciddi yansımalarındandır.

Bazı özellikleri verilen yazar aşağıdakilerden hangisidir?

A) Cevat Fehmi Başkut

B) Ahmet Kutsi Tecer

C) Orhan Asena

D) Necip Fazıl Kısakürek

E) Sabahattin Kudret Aksal

Bir " LİMİT " klasiği

LİMİT YAYINLARI

2022 YKS

AYT

BENZER SORULAR

ÖSYM

TÜRK DİLİ VE EDEBİYATI-SOSYAL BİLİMLER - 1

Aşağıdakilerin hangisinde bir varlık veya durum, olduğundan az veya çok gösterilmemiştir?

A) Bâğ-ı cennetdür yüzün gûyâ dehânun selsebîl
Ka'bedür gûyâ cemâlün nûrıdur rûşen delîl

B) Seyl-i firâk gönlüm evin durmayup yıkar
Dünyâya gözlerüm yaşı deryâ olup akar

C) Göklere irişdi feryâd ile efgânum meded
Kuluna zulm eyleme devletlü sultânum meded

D) Kul itdün kâinâtı kendüne sultân-ı âlemsin
Güzellerde nazîrün yok perî-veş şekl-i âdemsin

E) Bu hicrânı işitsün ağlasun derd ehli âh itsün
Sen olmayınca sohbetde gözüm kime nigâh itsün

ÖSYM telif hakları ÖSYM'ye aittir. Hiçbir kişi, kuruluş

LİMİT YAYINLARI

TÜRKİYE GENELİ DENEME SINAVI

Aşkumı yazmak istesem noktası bir kitâb olur
Şevkumı söylesem eğer zerresi âfitâb olur

şevk: İstek, heves. **âfitâb:** Güneş.

Bu beyitte aşağıdaki söz sanatlarından hangisine yer verilmiştir?

A) Hüsnütalil
B) Tecahülüarif
C) Kinaye
D) İrsalimesel
E) Mübalağa

Bir “ LİMİT ” klasiği

LİMİT YAYINLARI

2022 YKS

AYT

BENZER SORULAR

ÖSYM

TÜRK DİLİ VE EDEBİYATI-SOSYAL BİLİMLER - 1

Zurnacı, Pişekâr havasını çalar. Pişekâr meydana gelip iki eliyle seyirciyi selamladıktan sonra zurnacıyla şöyle konuşur:

Pişekâr: Amma benim pehlivanım!

Zurnacı: Buyur benim pehlivanım!

Pişekâr: Bu da hesap değildir.

Zurnacı: Nedir hesabın?

Pişekâr: Borcu sıkıyor kasabın?

“Yazıcı oyununun taklidini aldım, çal da oyunumuz başlasın, tenezzülen teşrif buyurun zevât-ı kirâm zevk-yâb olsunlar.” der.

İçerik özellikleri dikkate alındığında bu parça, orta oyununun hangi bölümünden alınmış olabilir?

A) Muhavere B) Tekerleme

C) Fasıl D) Bitiş

E) Giriş

LİMİT YAYINLARI

KURUMSAL DENEME SINAVI

(Zurna, Kavuklu havası çalar. Kavuklu; arkasında bir cüce, sırtında bir zembil ile meydana gelir. Bu arada Pişekâr da meydana çıkar, bir kenarda ayakta durur; Kavuklu’nun hareketini tetkik etmektedir.)

KAVUKLU: (*Durur. Arkasına bakarak*) Ulan, arkama ne takıldın?

CÜCE: Aaa! Şunun söylediğine bak! Ben mi takıldım, ayol, sen mi çağırdın?

KAVUKLU: Ulan, ben seni ne zaman çağırdım?

CÜCE: Nasıl, ne zaman çağırdın? Ben gidiyordum, sen bana “Gel, Memiş.” demedin mi?

KAVUKLU: Hay Allah müstahakkını versin! Ben seni mi çağırdım? Orada bir kahveye, bir ahbaba baktım gelmiş mi diye. Gelmediğini gördüm de “Gelmemiş.” dedim. Seni nerden çağırdım? (*Yürürler.*)

Bu parça orta oyununun hangi bölümünden alınmış olabilir?

A) Fasıl B) Mukaddime C) Muhavere

D) Döşeme E) Bitiş

Bir " LİMİT " klasiği

LİMİT YAYINLARI

2022 YKS

AYT

BENZER SORULAR

ÖSYM

TÜRK DİLİ VE EDEBİYATI-SOSYAL BİLİMLER - 1

Çâresüz kaldum Hudâyâ çâre kıl yâ Rab bana
Nefs ü şeytandan halâs eyle beni iy pâdişâ

Bir yanum ateş olupdur bir yanumda oldı su
Od ile su arasından sen beni eyle rehâ

Hücre-i kalbüm dolu kıl şu'le-i envâr ile
Nice bir cürm ü hatâyile ola gönlüm kara

Sana yüz tutdum Hudâyâ sen hidâyet eylegil
Senden özge kime kılam pâdişâhum ilticâ

Ben Murâd'a kıl inâyet fazlunı ey zü'l-celâl
Senden özge kimsenem yokdur benüm yâ Rabbenâ

İçerik özellikleri dikkate alındığında bu beyitlerin aşağıdaki türlerden hangisine ait olduğu söylenebilir?

A) Tevhit B) Methiye C) Münacat D) Naat E) Mersiye

LİMİT YAYINLARI

AYT TÜRK DİLİ VE EDEBİYATI DENEMELERİ

Biz kısık sesleriz minareleri
Sen ezansız bırakma Allah'ım

Ya çağır şurda bal yapanları
Ya kovansız bırakma Allah'ım

Mahyasızdır minareler göğü de
Kehkeşansız bırakma Allah'ım

Arif Nihat Asya'ya ait bir şiirden alınan bu parça içerik bakımından divan şiirine ait aşağıdaki türlerden hangisine örnek oluşturur?

A) Münacat B) Mersiye C) Naat D) Methiye E) Hicviye

"İlâhî! Gizlüsün, gâyet zuhûrundan. İlâhî! Görünmezsin, ziyâde nûrundan. İlâhî, Seyyidî ve Mevlâyî! Her ne kadar günahkâr isem afvünden nevmid degülem. Ne kadar günahum çirki var ise umaram keremün deryâsı mahv ide ve ne kadar a'mâlüm çürügi var ise ümidüm ol ki rahmetün sıfatı afv ide."

Sinan Paşa'nın Allah'a yalvarmak, yakarmak için yazdığı *Tazarrunâme* adlı eserinden alınan bu parça, şiir biçiminde yazılsaydı türü aşağıdakilerden hangisi olurdu?

A) Tevhit B) Naat C) Mersiye D) Münacat E) Methiye

Bir " LİMİT " klasiği

LİMİT YAYINLARI

2022 YKS

AYT

BENZER SORULAR

ÖSYM

TÜRK DİLİ VE EDEBİYATI-SOSYAL BİLİMLER - 1

Çağdaşı pek çok şair gibi başlangıçta şiirlerini aruzla yazdıktan sonra tecrübelerini heceye aktarıp dizelerdeki duraklarda yaptığı değişikliklerle kuvvetli bir ahenk sağlar. İlk şiirlerini *Miras* adıyla yayımlayan şair, gür sesli kahramanlık şiirleriyle şöhret kazanır. Daha sonra kaleme aldığı mistik şiirlerini *Varidat-ı Süleyman Çelebi* adıyla kitaplaştırır. Şiirimizde efsaneleri heyecanlı bir üslupla işleyen şair, özellikle korsanlıkla ilgili şiirleriyle sevilmiştir.

Bu parçada söz edilen şair aşağıdakilerden hangisidir?

A) Faruk Nafiz Çamlıbel

B) Orhan Seyfi Orhon

C) Enis Behiç Koryürek

D) Yusuf Ziya Ortaç

E) Halit Fahri Ozansoy

LİMİT YAYINLARI

AYT EDEBİYAT SORU BANKASI

İlkin aruzla aşk konusunu işleyen şiirler yazmış, daha sonra heceyi benimsemiş ve Millî Edebiyat akımına bağlanmıştır. Bu dönemde ulusal duygularla yüklü kahramanlık şiirleri yazmıştır. Bir yandan da aynı şiirde çeşitli hece kalıplarını kullanmayı denemiştir. Son dönemlerde mistik şiire yönelmiştir. *Miras, Güneşin Ölümü, Varidat–ı Süleyman* sanatçının şiir kitaplarıdır.

Bu parçada tanıtılan sanatçı, aşağıdakilerden hangisidir?

A) Enis Behiç Koryürek
B) Faruk Nafiz Çamlıbel
C) Halit Fahri Ozansoy
D) Yusuf Ziya Ortaç
E) Orhan Seyfi Orhon

Bir “ LİMİT ” klasiği

LİMİT YAYINLARI

2022 YKS

AYT

BENZER SORULAR

ÖSYM

TÜRK DİLİ VE EDEBİYATI-SOSYAL BİLİMLER - 1

Klasik Türk şiirinde kaside ustası olarak bilinen şair, özellikle fahriye bölümlerinde gösterdiği sanatlı anlatımla adından söz ettirir. Kasidelerindeki mübalağalı ifadeler ve özgün hayallerle bu dönem şairleri arasında dikkat çekerken zengin ve ahenkli anlatımıyla Türkçenin ses zenginliğini başarıyla yansıtır. Övgü ve yergilerinde uç noktalarda gezinen şairin Türkçe ve Farsça olmak üzere iki divanı vardır. Ölümünden sonra adı, hiciv alanında dönemini aşan bir eseriyle özdeşleşir.

Bu parçada söz edilen şair aşağıdakilerden hangisidir?

A) Nedim B) Nabi

C) Ahmedi D) Baki

E) Nef'i

ÖSYM
arın telif hakları ÖSYM
hiçbir kişi, kuru

LİMİT YAYINLARI

AYT TÜRK DİLİ VE EDEBİYATI DENEMELERİ

Türk edebiyatının en büyük kaside ustasıdır. Asıl adı Ömer olup Hasankale'de doğmuştur. Başta padişahlar olmak üzere, sadrazamlar ve diğer devlet adamlarına yazdığı kasidelerle büyük ilgi ve ihsana kavuşmuş; yazdığı hicivler ile de birçok kişinin kendisine düşman olmasına sebep olmuştur. Ölümü de yazdığı bir hiciv yüzünden olmuştur.

Bu parçada bahsedilen divan şairi aşağıdakilerden hangisidir?

A) Nâbî B) Bâkî C) Şeyh Galip

D) Şeyhî E) Nef'î

Bir “ LİMİT ” klasiği

LİMİT YAYINLARI

2022 YKS

TYT

BENZER SORULAR

ÖSYM

MATEMATİK

. Filiz başlangıç noktasından yola çıkarak üç yol ayrımından geçmiş ve arkadaşları olan Ahmet, Banu, Cem, Derya ve Elif'ten birine gitmiştir.

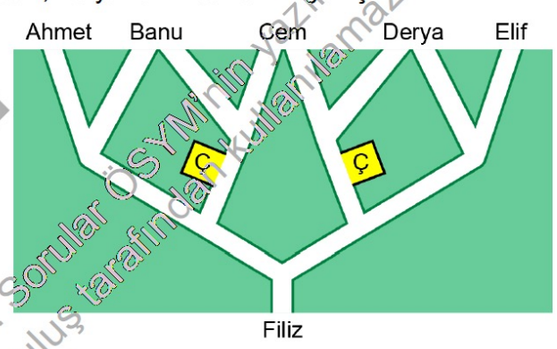

...ır. Sorular ÖSYM'nin yazılı izni olmadan kuruluş tarafından kullanılamaz.

p : İlk yol ayrımında soldaki yoldan gitmiştir.

q : İkinci yol ayrımında çiçekçi (Ç)'nin olduğu yoldan gitmiştir.

r : Üçüncü yol ayrımında sağdaki yoldan gitmiştir.

önermeleri verilmiştir.

$p' \wedge (q \wedge r)$

önermesi doğru olduğuna göre, Filiz hangi arkadaşına gitmiştir?

A) Ahmet B) Banu C) Cem

D) Derya E) Elif

LİMİT YAYINLARI

TYT 15'Lİ MATEMATİK DENEMELERİ

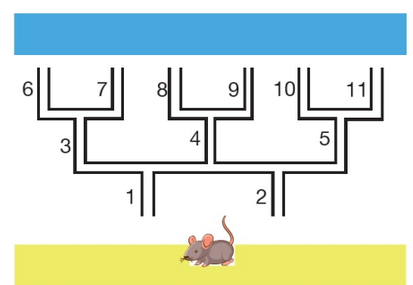

Yukarıdaki labirentin düşey doğrultuda bulunan yolları 1'den 11'e kadar olan tam sayılarla numaralandırılmıştır. Sarı bölgede bulunan bir fare 1 ya da 2 numaralı yollardan birini kullanarak labirente girip, geçtiği bir yoldan tekrar geçmeden mavi bölgedeki peynire ulaşmıştır.

Farenin mavi bölgeye ulaşırken kullandığı yollarla ilgili aşağıdaki önermeler veriliyor.

p: "Fare, numarası çift olan yollardan hiçbirini kullanmamıştır."

q: "Fare, numarası 3'ün tam katı olan en az bir yolu kullanmıştır."

r: "Farenin kullandığı düşey doğrultulu yolların numaraları toplamı çift sayıdır."

$(p \wedge q) \Leftrightarrow (r \wedge q)$ önermesi yanlış olduğuna göre, farenin mavi bölgeye geçerken kullandığı düşey doğrultulu yolların numaraları sırasıyla aşağıdakilerden hangisi olamaz?

A) 1, 3 ve 6 B) 1, 3 ve 7 C) 1, 4 ve 9

D) 2, 3 ve 7 E) 2, 5 ve 11

Bir “ LİMİT ” klasiği

LİMİT YAYINLARI

2022 YKS

TYT

BENZER SORULAR

ÖSYM

MATEMATİK

Sorular ÖSYM'nin ya... kuruluş tarafından kullanılan...

. Bir arkadaşı Ayşe'ye oturdukları evin ne zaman yapıldığını sormuştur. Ayşe de

- evin 1990 yılındaki yaşının kendisinin bugünkü yaşına,
- evin 2000 yılındaki yaşının eşinin bugünkü yaşına,
- evin 2020 yılındaki yaşının kendisi ile eşinin bugünkü yaşları toplamına

eşit olduğunu söylemiştir.

Buna göre, Ayşe'nin oturduğu ev hangi yılda yapılmıştır?

A) 1960 B) 1965 C) 1970 D) 1975 E) 1980

LİMİT YAYINLARI

KURUMSAL TYT DENEME SINAVI-4

Mehmet, 1982 yılında bir ormana ağaç dikmiştir. Mehmet 2008 yılında arkadaşı Nihat ile bu ormana gelmiş ve Nihat'a diktiği ağacı göstererek “Bu ağacın bugünkü yaşı, benim bugünkü yaşımın yarısıdır.” demiştir.

Bu ormana dedesinin de ağaç diktiğini söyleyen Nihat, dedesinin diktiği ağacı göstererek “Dedem bu ağacı senin kendi ağacını diktiğin tarihten 70 yıl önce dikmiş. Dedemin diktiği bu ağacın bugünkü yaşı, benim bugünkü yaşımın 2 katıdır.” demiştir.

Buna göre, Mehmet ile Nihat'ın doğum yıllarının toplamı kaçtır?

A) 3904 B) 3907 C) 3910 D) 3913 E) 3916

Bir " LİMİT " klasiği

LİMİT YAYINLARI

2022 YKS

AYT

BENZER SORULAR

ÖSYM

MATEMATİK

a, b ve c tam sayıları için

- $a + b$
- $b \cdot (a + b)$
- $c \cdot (a + b)$

ifadelerinden iki tanesi çift sayı, bir tanesi tek sayıdır.

Buna göre,

I. $a + c$

II. $b + c$

III. $a + b + c$

ifadelerinden hangileri tek sayıdır?

A) Yalnız I B) Yalnız II C) Yalnız III

D) I ve II E) I ve III

LİMİT YAYINLARI

AYT TÜRKİYE GENELİ DENEME SINAVI

a, b ve c tam sayılardır.

5a – 1, a + 3b ve a – c + 1 sayılarından birinin tek, ikisinin çift sayı olduğu bilinmektedir.

Buna göre,

I. a^b çift sayıdır.

II. $(a + b)^c$ pozitiftir.

III. $a \cdot c + b$ çift sayıdır.

ifadelerinden hangileri <u>kesinlikle</u> doğrudur?

A) Yalnız I B) Yalnız III C) I ve II

D) II ve III E) I, II ve III

Bir " LİMİT " klasiği

LİMİT YAYINLARI

2022 YKS

TYT

BENZER SORULAR

ÖSYM

MATEMATİK

Aşağıdaki kutuların içine 1, 2, 3, 4, 5, 6, 7, 8, 9 ve 10 sayıları, her kutuya farklı bir sayı gelecek şekilde yerleştirildiğinde, tüm bölme işlemlerinin sonucu tam sayı olmaktadır.

□ : □ = A
□ : □ = B
□ : □ = C
□ : □ = D
□ : □ = E

Buna göre, A + B + C + D + E toplamı kaçtır?

A) 9 B) 11 C) 13 D) 15 E) 17

LİMİT YAYINLARI

TYT DBK TÜM DERSLER 4+2 SORU BANKASI

Aşağıdaki ifadelerde bulunan karelerin her birine 2, 4, 6, 8, 10, 12, 14, 16 sayılarından farklı biri yazıldığında tüm eşitlikler sağlanmaktadır.

□ − □ = 8
□ : □ = 8
□ + □ = 20
□ x □ = ?

Buna göre, soru işareti ile gösterilen yere gelebilecek farklı değerlerin toplamı kaçtır?

A) 96 B) 100 C) 108 D) 112 E) 120

Bir " LİMİT " klasiği

LİMİT YAYINLARI

2022 YKS

TYT

BENZER SORULAR

ÖSYM

LİMİT YAYINLARI

MATEMATİK

A, B ve C birbirinden farklı rakamlar, AB ve BC iki basamaklı ardışık tek doğal sayılar olmak üzere,

$AB < BC$

eşitsizliği veriliyor.

Buna göre, $A + B + C$ toplamı kaçtır?

A) 12 B) 13 C) 17 D) 18 E) 20

...in yazılı izni olmaksız... ...ılamaz.

TYT 5'Lİ DENEME SINAVLARI

ab, ac, bc ve ba iki basamaklı sayılar,

$ab > ac$

$ba < bc$

olmak üzere; sayı doğrusu üzerinde ab ve bc iki basamaklı sayıları arasındaki uzaklık 48 birimdir.

Buna göre, a + b + c toplamı <u>en az</u> kaçtır?

A) 6 B) 8 C) 11 D) 13 E) 14

Bir " LİMİT " klasiği

LİMİT YAYINLARI

2022 YKS

TYT

BENZER SORULAR

ÖSYM

LİMİT YAYINLARI

MATEMATİK

TYT 5'Lİ DENEME SINAVLARI

Aynı evde oturan ve okulları birbirine zıt yönlerde olan Burcu ile Esra aynı anda evden çıkıp okullarına doğru sabit hızlarla hareket etmişlerdir. Aşağıdaki grafik, bu iki kişinin okullarına varıncaya kadar geçen sürede aralarındaki mesafenin zamana göre değişimini göstermektedir.

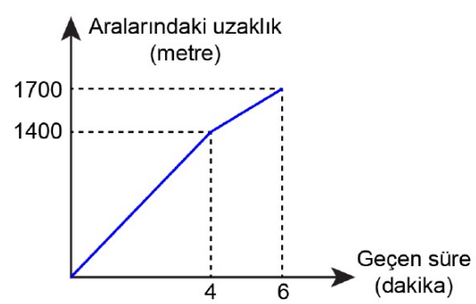

Esra'nın okulu eve daha uzak olduğuna göre, Burcu'nun okulunun eve olan uzaklığı kaç metredir?

A) 450 B) 500 C) 600 D) 750 E) 800

A ve B noktalarından aynı anda aynı yöne doğru hareket eden iki aracın aralarındaki mesafenin zamana göre değişimi, aşağıdaki grafikte gösterilmiştir.

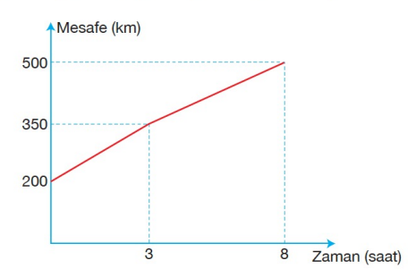

Bu iki araç 3 saat belirli sabit hızlarla hareket ettikten sonra A'dan harekete geçen araç saatteki hızını 2 katına çıkarırken, B'den harekete geçen araç saatteki hızını 10 km artırmıştır.

Buna göre, A'dan harekete geçen aracın başlangıç hızı saatte kaç kilometredir?

A) 30 B) 35 C) 40 D) 45 E) 50

Bir “ LİMİT ” klasiği

LİMİT YAYINLARI

2022 YKS

AYT

BENZER SORULAR

ÖSYM

MATEMATİK

$a \in \left(\frac{\pi}{4}, \frac{\pi}{3}\right)$ **olmak üzere,**

$x = \cos(2a) \cdot \cot(2a)$

$y = \cos(4a) \cdot \cot(4a)$

$z = \cos(6a) \cdot \cot(6a)$

olduğuna göre; x, y ve z değerlerinin işaretleri sırasıyla aşağıdakilerden hangisidir?

A) $+, +, -$ B) $+, -, +$

C) $+, -, -$ D) $-, +, -$

E) $-, -, -$

ÖSYM soruların telif hakları ÖSYM'ye ait, hiçbir kişi, kurum

LİMİT YAYINLARI

AYT MATEMATİK YAPRAK TEST

$\frac{\pi}{4} < \alpha < \frac{\pi}{3}$ **olmak üzere,**

I. $\sin 2\alpha < \tan 2\alpha$

II. $\sin 3\alpha < \cos 3\alpha$

III. $\cot 3\alpha < \cos 4\alpha$

eşitsizliklerinden hangileri doğrudur?

A) Yalnız I B) Yalnız II C) Yalnız III

D) I ve II E) II ve III

Bir " LİMİT " klasiği

LİMİT YAYINLARI

2022 YKS

AYT

BENZER SORULAR

ÖSYM

MATEMATİK

a bir gerçel sayı olmak üzere,

$$\int_{1}^{3}\left(3x^2 + 2ax + a\right) dx = 56$$

eşitliği veriliyor.

Buna göre, a kaçtır?

A) 3 B) 4 C) 5 D) 6 E) 7

LİMİT YAYINLARI

AYT MATEMATİK YAPRAK TEST

$$\int_{-1}^{2} (2ax - 1)dx = 2a$$

olduğuna göre, a kaçtır?

A) –3 B) –1 C) 1 D) 3 E) 5

Bir " LİMİT " klasiği

LİMİT YAYINLARI

2022 YKS

AYT

BENZER SORULAR

ÖSYM

MATEMATİK

Dik koordinat düzleminde; [0, 6] kapalı aralığında tanımlı ve sürekli f, g ve h fonksiyonlarının grafiklerinin bir kısmı şekildeki gibi gösterilmiştir.

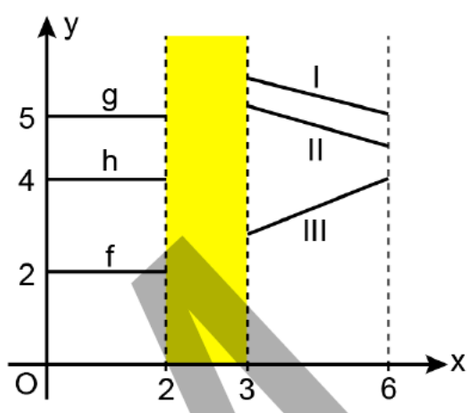

Bu fonksiyonlar için

$$(f \circ g)(1) < (f \circ h)(1) < (g \circ h)(1)$$

eşitsizlikleri verilmiştir.

Buna göre; I, II ve III numaralı grafiklere karşılık gelen fonksiyonlar sırasıyla aşağıdakilerin hangisinde doğru olarak verilmiştir?

A) f – h – g B) g – f – h C) g – h – f

D) h – f – g E) h – g – f

ÖSYM'nin yazılı izni olmaksızın kullanılamaz.

LİMİT YAYINLARI

AYT MATEMATİK YAPRAK TEST

Aşağıda f, g ve h fonksiyonlarının grafikleri verilmiştir.

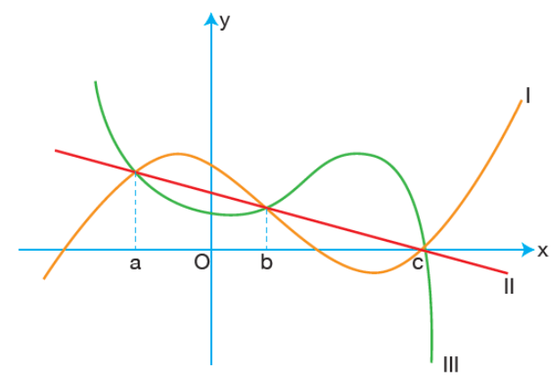

Fonksiyonlarla ilgili,

- $x \in (a, b)$ için $f(x) < g(x)$
- $x \in (b, c)$ için $f(x) < h(x)$

bilgileri veriliyor.

Buna göre, aşağıdakilerden hangisi yanlıştır?

A) I numaralı grafik g(x) fonksiyonuna aittir.

B) II numaralı grafik f(x) fonksiyonuna aittir.

C) $x > c$ için $h(x) < 0$'dır.

D) $x \in (b, c)$ için $f(x) < g(x)$'tir.

E) $x < a$ için $f(x) > g(x)$'tir.

Bir " LİMİT " klasiği

LİMİT YAYINLARI

2022 YKS

AYT

BENZER SORULAR

ÖSYM

GEOMETRİ

a ve b gerçel sayılar olmak üzere; dik koordinat düzleminde, birbirine dik olan

$3y = 2x + a$

$by = 3x - 12$

doğruları y-ekseni üzerindeki bir noktada kesişmektedir.

Buna göre, a + b toplamı kaçtır?

A) 16 B) 19 C) 20 D) 21 E) 24

LİMİT YAYINLARI

TYT-AYT GEOMETRİ YAPRAK TEST

d_1 ... $3x + 2y - 6 = 0$

d_2 ... $ax + by + 6 = 0$

doğruları y ekseni üzerinde dik kesiştiklerine göre, a + b toplamı kaçtır?

A) -2 B) $-\frac{2}{3}$ C) $\frac{4}{3}$ D) $\frac{3}{2}$ E) 2

Bir " LİMİT " klasiği

LİMİT YAYINLARI

2022 YKS

AYT

BENZER SORULAR

ÖSYM

GEOMETRİ

Dik koordinat düzleminin birinci bölgesinde bulunan ve kenarları koordinat eksenlerine paralel olan bir karenin köşegenleri (3, 6) noktasında kesişmektedir.

Bu karenin orijine en uzak köşesinin koordinatları toplamı 14 olduğuna göre, karenin alanı kaç birimkaredir?

A) 4 B) 9 C) 16 D) 25 E) 36

LİMİT YAYINLARI

KURUMSAL TYT-AYT GEOMETRİ SORU BANKASI

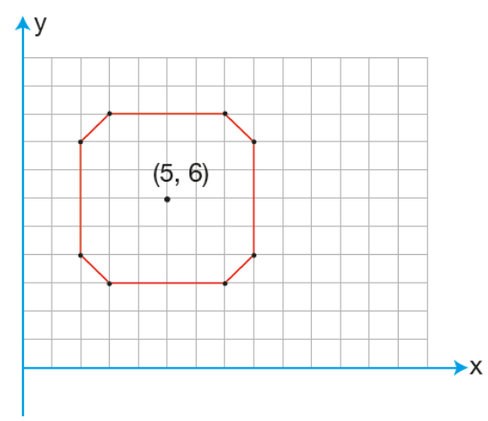

Şekildeki birim karelerden oluşan analitik düzlemde A(5, 6) noktasına $\sqrt{13}$ birim uzaklıkta ve koordinatları tam sayılardan oluşan noktaların tamamı işaretleniyor.

Buna göre,

I. İşaretlenen noktalarını köşe kabul eden çokgenin çevresi $16 + 4\sqrt{2}$ birimdir.

II. İşaretlenen noktaları köşe kabul eden çokgenin birbirine en uzak noktalar arasındaki uzaklık $\sqrt{61}$ birimdir.

III. İşaretlenen noktalardan orijine en uzak olan noktanın koordinatları toplamı $15 + \sqrt{2}$ birimdir.

ifadelerinden hangileri <u>yanlıştır</u>?

A) Yalnız I B) Yalnız II C) Yalnız III

D) I ve II E) II ve III

Bir “ LİMİT ” klasiği

LİMİT YAYINLARI

2022 YKS

AYT

BENZER SORULAR

ÖSYM

GEOMETRİ

Dik koordinat düzleminin birinci bölgesinde bulunan ve kenarları koordinat eksenlerine paralel olan bir karenin köşegenleri (3, 6) noktasında kesişmektedir.

Bu karenin orijine en uzak köşesinin koordinatları toplamı 14 olduğuna göre, karenin alanı kaç birimkaredir?

A) 4 B) 9 C) 16 D) 25 E) 36

LİMİT YAYINLARI

TYT-AYT GEOMETRİ SORU BANKASI

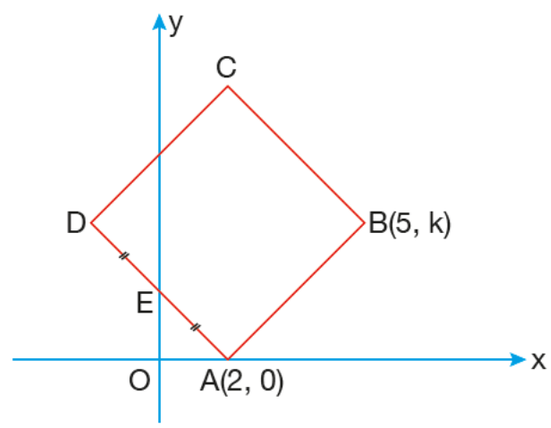

ABCD kare, |DE| = |EA|

Dik koordinat düzlemindeki verilere göre, D noktasının koordinatları çarpımı kaçtır?

A) –4 B) –5 C) –6 D) –8 E) –9

Bir “ LİMİT ” klasiği

LİMİT YAYINLARI

2022 YKS

AYT

BENZER SORULAR

ÖSYM

GEOMETRİ

Dik koordinat düzleminde, bir kenarı x-ekseni üzerinde bulunan bir ABC eşkenar üçgeni çizilmiştir. Bu üçgenin köşe noktalarının y-eksenine göre simetriği alındıktan sonra x-ekseni boyunca pozitif yönde 9 birim ötelendiğinde elde edilen üç nokta, bir köşesi orijinde olan bir üçgenin köşelerini oluşturmaktadır.

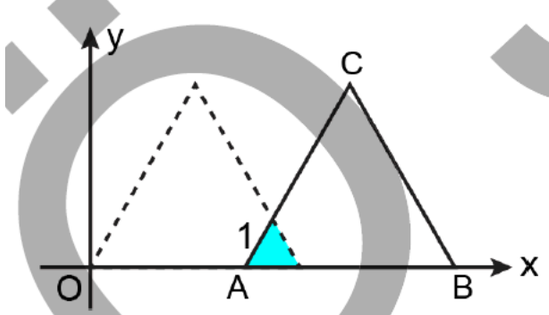

Bu iki üçgenin de içinde kalan bölge, bir kenar uzunluğu 1 birim olan bir eşkenar üçgendir.

Buna göre, ABC üçgeninin çevresi kaç birimdir?

A) 9 B) 12 C) 15 D) 18 E) 21

ÖSYM sorularının telif hakkı ÖSYM'ye aittir. Hiçbir kişi, kurum

LİMİT YAYINLARI

TYT-AYT GEOMETRİ YAPRAK TEST

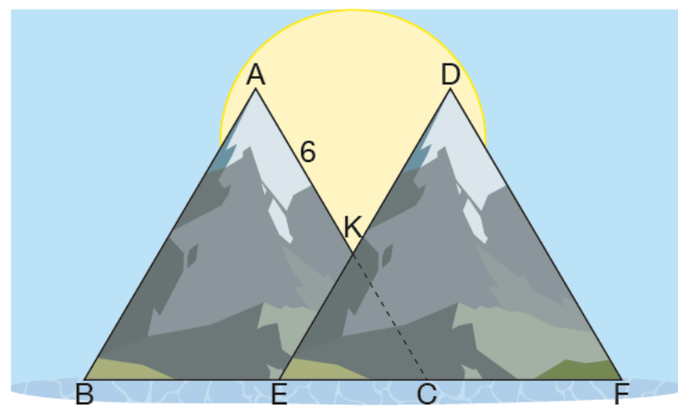

ABC ve DEF özdeş eşkenar üçgeni biçiminde çizilen iki dağ EKC üçgeni boyunca kesişmektedir.

B, E, C ve F doğrusal |AK| = 6 birim, |BF| = 16 birim

olduğuna göre, Çevre($\widehat{ECK}$) kaç birimdir?

A) 6 B) 9 C) 12 D) 15 E) 18

Bir “ LİMİT ” klasiği

LİMİT YAYINLARI

2022 YKS

TYT

BENZER SORULAR

ÖSYM

GEOMETRİ

a ve b gerçel sayılar olmak üzere; dik koordinat düzleminde, birbirine dik olan

$3y = 2x + a$

$by = 3x - 12$

doğruları y-ekseni üzerindeki bir noktada kesişmektedir.

Buna göre, a + b toplamı kaçtır?

A) 16 B) 19 C) 20 D) 21 E) 24

LİMİT YAYINLARI

TYT-AYT GEOMETRİ SORU BANKASI

Dik koordinat düzleminde y = 3x + 1 doğrusuna paralel olan ve y = 3 – x doğrusu ile y ekseni üzerinde kesişen doğrunun denklemi aşağıdakilerden hangisidir?

A) y = 3x – 1 B) y = 3x C) y = 3x + 2 D) y = 3x + 3 E) y = 3x + 4

Bir " LİMİT " klasiği

LİMİT YAYINLARI

2022 YKS

TYT

BENZER SORULAR

ÖSYM

GEOMETRİ

Bir dik prizmanın hacmi taban alanı ile yüksekliğinin çarpımına eşittir.

Bir masanın üstüne şekildeki gibi yan yana yerleştirildiğinde ayrıt uzunluğu 1 birim olan bir küp oluşturan biri tamamen suyla dolu diğeri ise boş olan dikdörtgenler prizması biçiminde iki kap bulunmaktadır. Suyla dolu olan kaptaki suyun bir kısmı dışarı dökülmeden diğer kaba boşaltıldığında aşağıdaki görünüm elde edilmiştir.

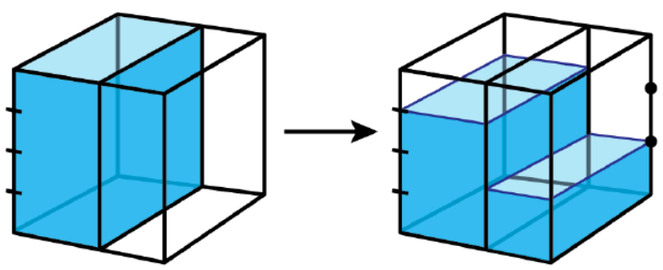

Bu durumda; kaplardan birinin $\frac{3}{4}$'ünün, diğerinin ise $\frac{1}{3}$'ünün suyla dolu olduğu görülmüştür.

Buna göre, başlangıçta boş olan kabın hacmi kaç birimküptür?

A) $\frac{1}{3}$ B) $\frac{2}{5}$ C) $\frac{3}{7}$ D) $\frac{3}{8}$ E) $\frac{4}{9}$

LİMİT YAYINLARI

KURUMSAL TYT-AYT GEOMETRİ SORU BANKASI

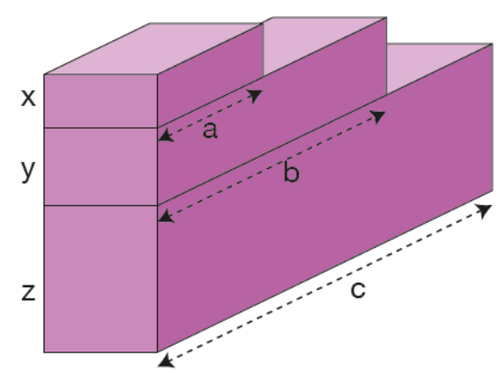

Üst üste konulmuş üç dikdörtgenler prizmasından oluşan şeklin toplam hacmi 638 cm^3 olup x, y, z, a, b, c ebatları arasında 4a = 2b = c ve 6x = 3y = z bağıntıları geçerli olduğuna göre, ortadaki prizmanın hacmi kaç cm^3tür?

A) 56 B) 64 C) 72 D) 80 E) 88

Bir “ LİMİT ” klasiği

LİMİT YAYINLARI

2022 YKS

TYT

BENZER SORULAR

ÖSYM

GEOMETRİ

Bir dik prizmanın hacmi taban alanı ile yüksekliğinin çarpımına eşittir.

Bir masanın üstüne şekildeki gibi yan yana yerleştirildiğinde ayrıt uzunluğu 1 birim olan bir küp oluşturan biri tamamen suyla dolu diğeri ise boş olan dikdörtgenler prizması biçiminde iki kap bulunmaktadır. Suyla dolu olan kaptaki suyun bir kısmı dışarı dökülmeden diğer kaba boşaltıldığında aşağıdaki görünüm elde edilmiştir.

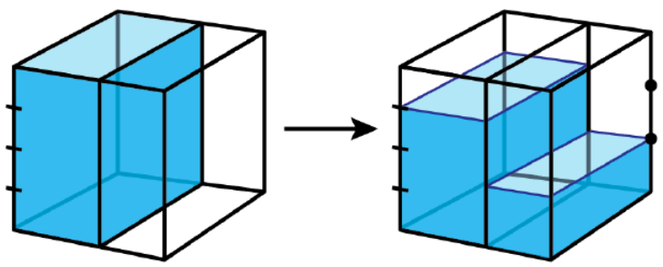

Bu durumda; kaplardan birinin $\frac{3}{4}$'ünün, diğerinin ise $\frac{1}{3}$'ünün suyla dolu olduğu görülmüştür.

Buna göre, başlangıçta boş olan kabın hacmi kaç birimküptür?

A) $\frac{1}{3}$ B) $\frac{2}{5}$ C) $\frac{3}{7}$ D) $\frac{3}{8}$ E) $\frac{4}{9}$

LİMİT YAYINLARI

KURUMSAL TYT DENEME SINAVI

Hacmi 216 br^3 olan küp şeklindeki beton tuğla, iki eşit parçaya bölündükten sonra parçaları aralarında boşluk bırakılmadan dik prizma oluşturularak Şekil 2'deki gibi üst üste konuluyor.

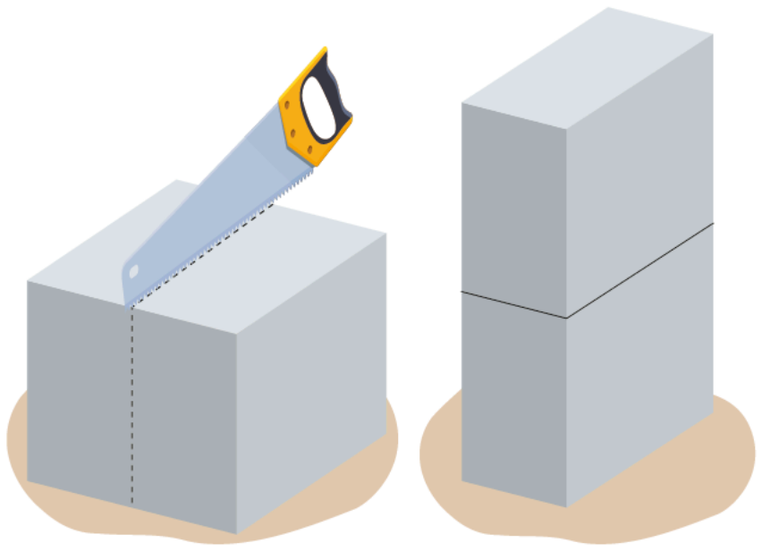

Şekil 1 Şekil 2

Bu işlem sonunda elde edilen cismin yüzey alanındaki değişim aşağıdakilerden hangisinde doğru verilmiştir?

A) 9 birimkare azalır.
B) 36 birimkare azalır.
C) 36 birimkare artar.
D) 48 birimkare artar.
E) 52 birimkare artar.

Bir " LİMİT " klasiği

LİMİT YAYINLARI

2022 YKS

TYT

BENZER SORULAR

ÖSYM

GEOMETRİ

31. Aynı renkteki kenarları birbirine paralel olan aşağıdaki şekilde derece türünden a, b, x, y ve z açıları gösterilmiştir.

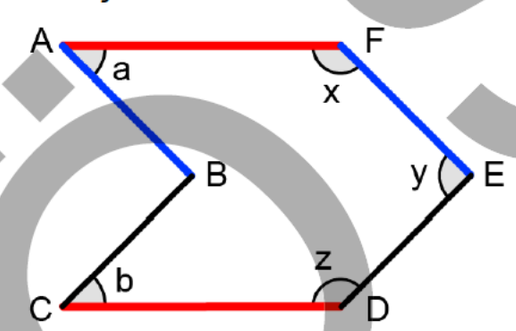

$a < b < 60^\circ$

olduğuna göre x, y ve z açılarının küçükten büyüğe doğru sıralanışı aşağıdakilerden hangisidir?

A) $x < y < z$ B) $x < z < y$ C) $y < x < z$

D) $y < z < x$ E) $z < y < x$

ÖSYM soruların telif hakkı ÖSYM'ye aittir. Hiçbir kişi, kuruluş

LİMİT YAYINLARI

KURUMSAL TYT DENEME SINAVI

31. [OE, [OF, [AB ve [CD tellerinin birleştirilmesiyle Şekil 1'deki görüntü elde edilmiştir.

$m(\widehat{EOF}) = \alpha$, [AB // [CD olmak üzere,

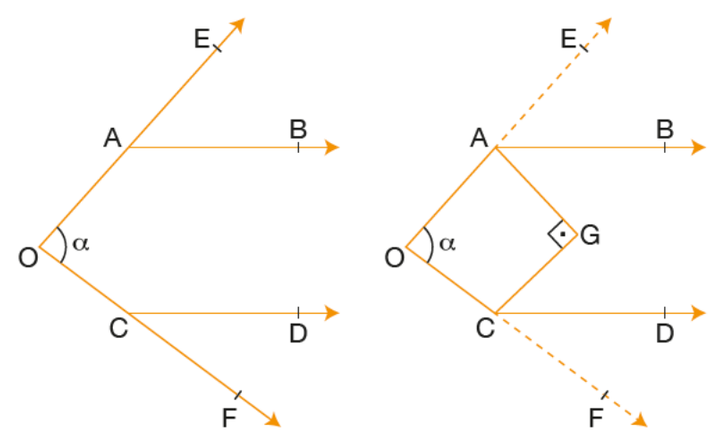

Şekil 1 Şekil 2

AE ve CF tellerinin sırasıyla [AB ve [CD'ına göre simetriği olacak şekilde bükülmesiyle E ile F köşeleri G noktasında çakışmakta ve [AG] ⊥ [GC] olmaktadır.

Buna göre, α kaç derecedir?

A) 30 B) 60 C) 90 D) 120 E) 135

Bir “ LİMİT ” klasiği

LİMİT YAYINLARI

2022 YKS

TYT

BENZER SORULAR

ÖSYM

GEOMETRİ

Sorular ÖSYM'nin kurulus tarafından kullan

Aşağıdaki şekilde, uzun kenarı 9 cm olan dikdörtgen biçimindeki bir karton ile bu kartonla eşit alana sahip ve uzun kenarları 6 cm olan dikdörtgen biçimindeki özdeş üç karton gösterilmiştir.

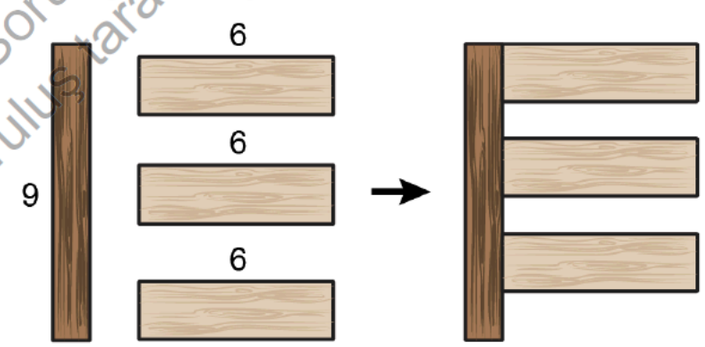

Bu dört karton şekildeki gibi birleştirildiğinde oluşan şeklin çevresi 56 cm olmaktadır.

Buna göre, dikdörtgen biçimindeki özdeş üç kartondan birinin çevresi kaç cm'dir?

A) 13 B) 14 C) 15 D) 16 E) 17

LİMİT YAYINLARI

KURUMSAL TYT DENEME SINAVI

Zehra; dikdörtgen biçimindeki bir kâğıttan, köşeleri dikdörtgenin karşılıklı iki köşesinde ve kenarları dikdörtgenin kenarlarına paralel olacak biçimde kesip çıkararak isminin baş harfi olan Z'yi oluşturuyor.

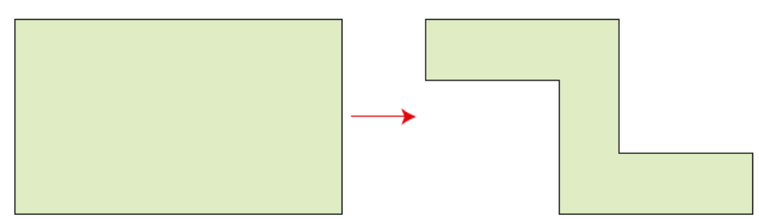

Zehra'nın kullandığı dikdörtgenin çevresi 32 birim olduğuna göre, oluşturduğu Z harfinin çevresi kaç birimdir?

A) 12 B) 16 C) 20 D) 24 E) 32

Bir " LİMİT " klasiği

LİMİT YAYINLARI

2022 YKS

TYT

BENZER SORULAR

ÖSYM

GEOMETRİ

Sorular ÖSYM'nin Kuruluş tarafından hulla

Aşağıdaki şekilde, uzun kenarı 9 cm olan dikdörtgen biçimindeki bir karton ile bu kartonla eşit alana sahip ve uzun kenarları 6 cm olan dikdörtgen biçimindeki özdeş üç karton gösterilmiştir.

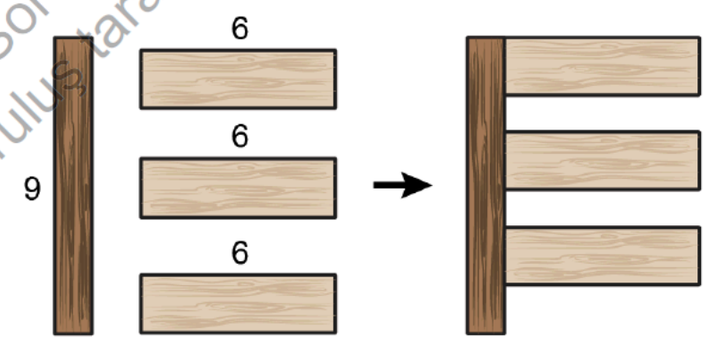

Bu dört karton şekildeki gibi birleştirildiğinde oluşan şeklin çevresi 56 cm olmaktadır.

Buna göre, dikdörtgen biçimindeki özdeş üç kartondan birinin çevresi kaç cm'dir?

A) 13 B) 14 C) 15 D) 16 E) 17

LİMİT YAYINLARI

KURUMSAL TYT DENEME SINAVI

Sinan çalışma masasının üzerine birbirine eş kare şeklindeki üç kitabını birer kenarları çakışacak biçimde yan yana aşağıdaki gibi yerleştirdiğinde, oluşan şeklin çevresi 56 birim olmaktadır.



Daha sonra kitaplarını aşağıdaki gibi birer kenarları boyunca yukarı yönde x birim kaydırıyor.

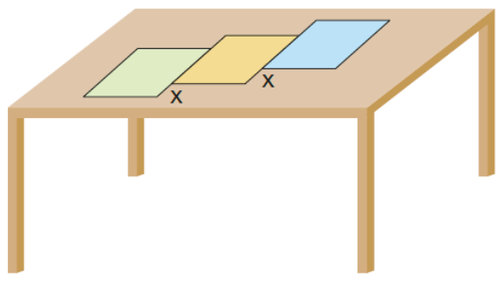

Sinan'ın son durumda oluşturduğu şeklin çevresi 64 birim olduğuna göre, x kaç birimdir?

A) 1 B) 2 C) 3 D) 4 E) 5

Bir " LİMİT " klasiği

LİMİT YAYINLARI

2022 YKS

AYT

BENZER SORULAR

ÖSYM

GEOMETRİ

Hacimleri birbirine eşit olan dik dairesel koni biçimindeki iki külah, tabanları zemine paralel olacak şekilde aşağıdaki gibi yerleştirilmiştir.

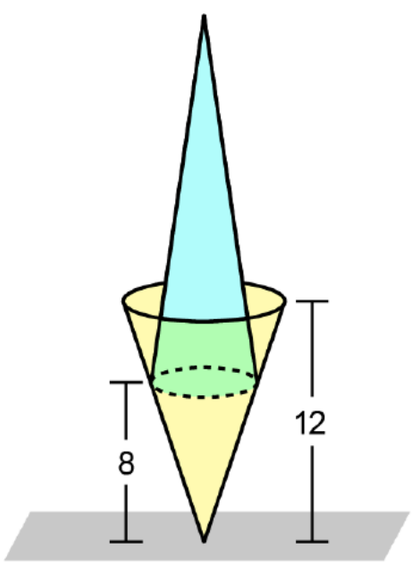

Külahların tabanlarının zemine olan uzaklıkları 8 ve 12 birim olarak ölçülmüştür.

Buna göre, üstteki külahın tepe noktasının zemine olan uzaklığı kaç birimdir?

A) 26 B) 29 C) 32 D) 35 E) 38

LİMİT YAYINLARI

TYT-AYT GEOMETRİ SORU BANKASI

OA ⊥ BC, |AO| = |HG| = 12 birim, |OC| = 9 birim, |EG| = 6 birim. Dairesel dik silindir ve dik koni veriliyor.

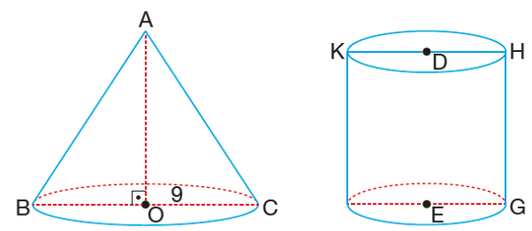

ABC konisi silindirin üzerine A, D, E doğrusal olacak şekilde yerleştirilip [KH] boyunca kesiliyor.

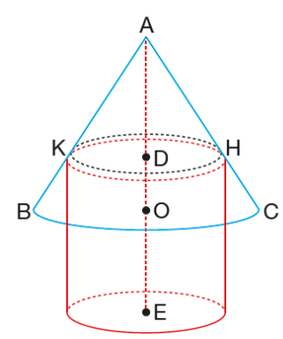

Sonra aşağıdaki kesik koni hariç tüm parçalar atılıyor.

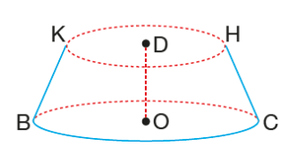

Buna göre, kesik koninin yanal alanı kaç π birimkaredir?

A) 135 B) 125 C) 100 D) 75 E) 60

Bir " LİMİT " klasiği

LİMİT YAYINLARI

2022 YKS

TYT

BENZER SORULAR

ÖSYM

GEOMETRİ

34. Her birinin alanı 50 birimkare olan dik üçgen biçimindeki iki eş bayrak, doğrusal bir tele birer köşeleri telin uç noktalarında bulunacak, birer köşeleri telin orta noktasında çakışık olacak biçimde Şekil 1'deki gibi asılmıştır. Sonra, sağdaki bayrak Şekil 2'deki gibi 4 birim sola kaydırılmış ve bayrakların kapladığı alan 88 birimkare olmuştur.

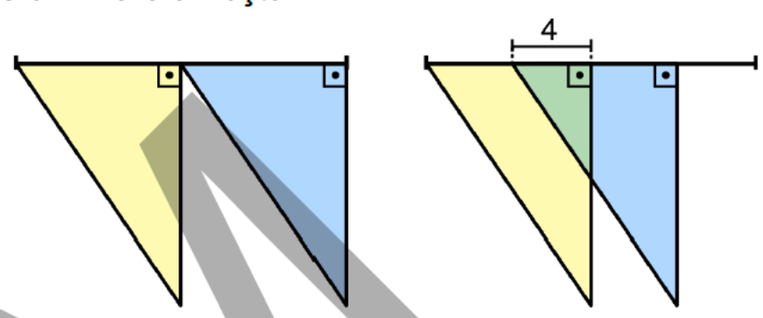

Şekil 1 Şekil 2

Sağdaki bayrak 2 birim daha sola kaydırıldığında bayrakların kapladığı alan kaç birimkare olur?

A) 70 B) 73 C) 75 D) 77 E) 80

LİMİT YAYINLARI

KURUMSAL TYT DENEME SINAVI

31. Şekil 1'de verilen $|AB| = |AC| = 10$ birim olan ikizkenar üçgenin çevresi 32 birimdir. Üçgen, simetri ekseni boyunca kesilip oluşan parçalar birbirinden ayrılmadan soldaki parça aşağı doğru bir miktar kaydırılıyor ve Şekil 2 oluşuyor.

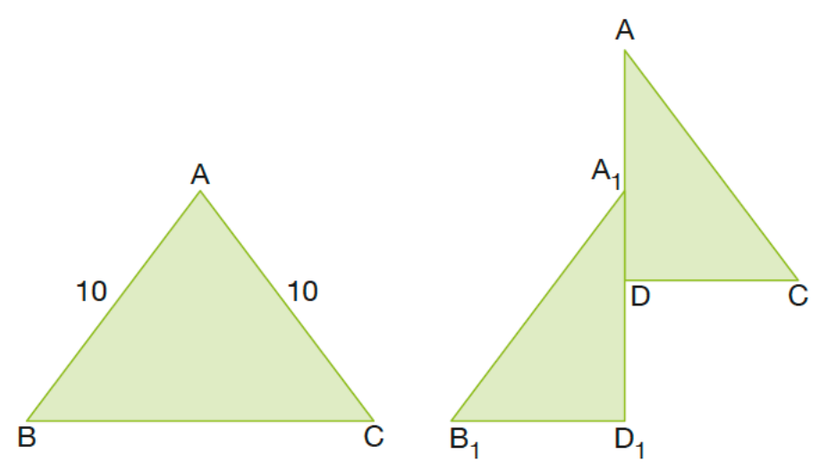

Şekil 1 Şekil 2

Şekil 2'de $|AD_1| = 13$ birim olduğuna göre, B_1 ve C noktaları arasındaki uzaklık kaç birim artmıştır?

A) 1 B) 2 C) 3 D) $6\sqrt{5} - 12$ E) 4

Bir " LİMİT " klasiği

LİMİT YAYINLARI

2022 YKS

TYT

BENZER SORULAR

ÖSYM

GEOMETRİ

37. n kenarlı bir düzgün çokgenin bir iç açısının ölçüsü

$$\frac{(n-2)\cdot 180^{o}}{n}$$ olarak hesaplanır.

Bir duvara asılı olan düzgün altıgen biçimindeki bir aynanın etrafına, dikdörtgen biçimindeki sarı renkli özdeş plakalar, plakalardan her birinin bir kenarı aynanın bir kenarı ile çakışacak biçimde bu duvara şekildeki gibi yerleştirilmiştir. Sonra, plakaların aynanın kenarları üzerinde olmayan köşeleri şekildeki gibi birleştirilerek çokgen biçiminde bir çerçeve yapılmıştır.

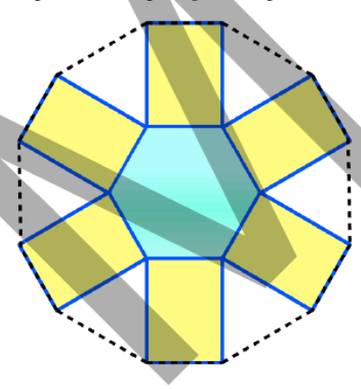

Aynanın çevresi 24 birim, çerçevenin çevresi ise 57 birim olarak verilmiştir.

Buna göre, plakalardan her birinin alanı kaç birimkaredir?

A) 20 B) 22 C) 24 D) 26 E) 28

ÖSYM'nin yazılı izni olmaksızın kullanılamaz.

LİMİT YAYINLARI

KURUMSAL TYT-AYT GEOMETRİ SORU BANKASI

Bir kenarı 2 birim düzgün altıgen olan bir havuz

2

Bir kenarı 2 birim olan kare bir çatı

2

veriliyor.

Mimar Can yukarıdaki görselleri kullanarak altıgen havuzun dışına, kare villalar yerleştirilerek düzgün onikigen biçiminde bir site planlamıştır. Çevresini kapatıp dışına yol yapılmıştır.

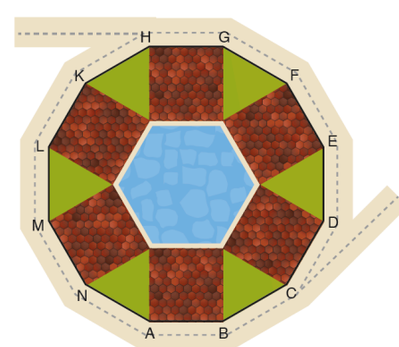

Yukarıdaki verilere göre, ABCDEFGHKLMN düzgün onikigen biçimindeki sitenin iç bölgesininin alanı kaç birimkaredir?

A) $48 + 24\sqrt{3}$ B) $36 + 18\sqrt{3}$ C) $24 + 18\sqrt{3}$ D) $24 + 12\sqrt{3}$ E) $18 + 12\sqrt{3}$

Bir “ LİMİT ” klasiği

LİMİT YAYINLARI

2022 YKS

AYT

BENZER SORULAR

ÖSYM

FİZİK

4. Ayşe'nin elinde aynı uzunlukta ve renkleri birbirinden farklı üç makas vardır. Bu üç makasın bıçaklarının uzunlukları ve destek noktasının bıçakların ucuna olan uzaklıkları farklıdır.

Ayşe şekillerde kesit alanı görülen bir teli bu üç makastan biriyle, kaydırmadan kesmek istemektedir. Bu işlem, makas seçiminin ve telin makas bıçağı üzerindeki konumunun özdeş kareler üzerinde ölçeklendirilerek bir arada verildiği düzlemlerde yapılmaktadır.

Buna göre Ayşe tutma yerlerinden var gücüyle düşey doğrultuda kuvvet uygulayarak teli kesmeye çalışırken makasın tek bir bıçağı ile tele uygulanan kuvvetin büyüklüğü aşağıdaki durumların hangisinde en fazla olur?

A)
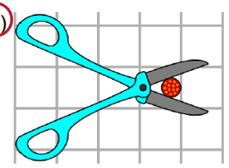

B)
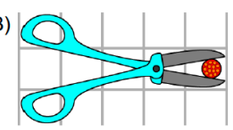

C)
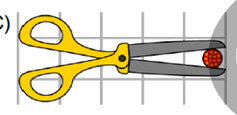

D)
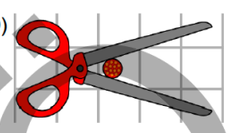

E)
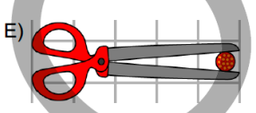

ÖSY
arın telif hakları ÖSY
hiçbir kişi, kuru

LİMİT YAYINLARI

KURUMSAL AYT FİZİK SORU BANKASI

1. Aşağıda K, L ve M makaslarında kuvvetin uyguladığı noktanın destek ile ve kağıdın konulduğu noktanın destek ile olan uzaklıkları aşağıda gösterilmiştir.

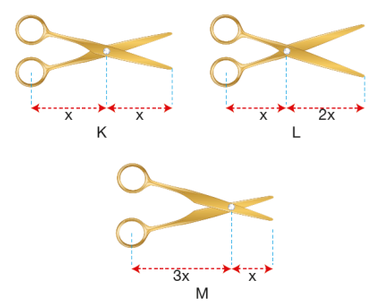

Buna göre K, L ve M makaslarının kuvvet kazançlarını gösteren sütun grafiği aşağıdakilerden hangisinde doğru olarak verilmiştir?

A)

B)
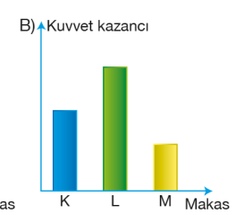

C)

D)

E)

Bir " LİMİT " klasiği

LİMİT YAYINLARI

2022 YKS

TYT

BENZER SORULAR

ÖSYM

COĞRAFYA

Haritalar kullanım amaçlarına göre; siyasi, fiziki, beşerî ve ekonomik haritalar olmak üzere ayrılır.

Buna göre siyasi haritalar ve özellikleri dikkate alındığında aşağıdakilerden hangisinin Muğla ilinin idari bölünüşünü gösteren bir siyasi haritadan yararlanılarak belirlenebileceği söylenemez?

A) Fethiye'nin coğrafi konumu
B) Bodrum'un iz düşüm alanı
C) Marmaris'in yer şekilleri özellikleri
D) Dalaman - Köyceğiz arası kuş uçumu uzunluğu
E) Ortaca'nın Milas'a göre konumu

LİMİT YAYINLARI

TYT COĞRAFYA SORU BANKASI

Türkiye ile Güney Kore arasındaki siyasi, ticari ve askerî ilişkilerin günümüzdeki yeri hakkında haber izleyen bir kişi; Türkiye'nin ve Güney Kore'nin dünya üzerindeki yerini, komşularını, birbirlerine uzaklıklarını ve aralarında hangi ülkelerin bulunduğunu merak ettiği için atlastaki haritalara bakmak istemiştir.

Bu kişinin aşağıdaki haritalardan hangisini incelemesi amacına uygundur?

A) Dünya Siyasi Haritası

B) Orta Doğu Ülkeleri Siyasi Haritası

C) Güneydoğu Asya Siyasi Haritası

D) Güney Kore Siyasi Haritası

E) Türkiye Siyasi Haritası

ÖSYM

Bir " LİMİT " klasiği

LİMİT YAYINLARI

2022 YKS

TYT

BENZER SORULAR

ÖSYM

COĞRAFYA

Karstik bölgelerde topoğrafya yüzeyinde birbirine yakın çok sayıda dolinin bir arada bulunması delikli karst olarak tanımlanırken, tropikal bölgelerde koni şekilli karstik tepelerin yaygın olarak bulunması ise kuleli karst olarak adlandırılmaktadır.

Bu yer şekillerinin oluşumunu, gelişimini ve dağılışını inceleyen coğrafyanın alt dalı aşağıdakilerden hangisidir?

A) Klimatoloji
B) Oseonografya
C) Jeomorfoloji
D) Kartografya
E) Biyocoğrafya

LİMİT YAYINLARI

TYT COĞRAFYA SORU BANKASI

Aşağıda bir yörenin bazı doğal ve beşerî özellikleri verilmiştir.

- Akarsuların aşındırması ve biriktirmesi sonucu oluşmuş yer şekilleri yaygındır.
- Dalga ve gelgit kıyıların şekillenmesinde etkilidir.
- Eriyebilen kayaçlar üzerinde lapya, dolin ve uvala gibi oluşumlar yaygındır.

Bu özellikler coğrafyanın aşağıdaki hangi alt dalı ile daha fazla ilgilidir?

A) Hidrografya
B) Klimatoloji
C) Biyocoğrafya
D) Jeomorfoloji
E) Kartografya

Bir " LİMİT " klasiği

LİMİT YAYINLARI

2022 YKS

TYT

BENZER SORULAR

ÖSYM

COĞRAFYA

Aşağıdaki haritada bazı alanlar numaralandırılarak gösterilmiştir.

Bu alanlardan hangilerinin, tundra ikliminin görüldüğü alanlar esas alınarak oluşturulacak doğal bölge sınırları içinde yer alması beklenir?

A) I ve II B) I ve III C) II ve III

D) II ve IV E) III ve IV

Sorular ÖSYM'nin yazılı izni olmaksızın kurum kararından kullanılamaz.

LİMİT YAYINLARI

TYT COĞRAFYA SORU BANKASI

Aşağıdaki harita üzerinde bazı büyük iklim alanları gösterilmiştir.

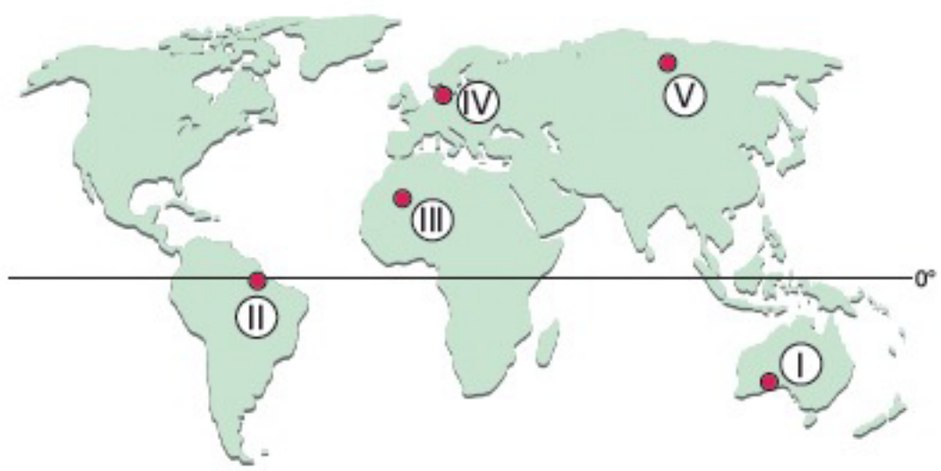

Buna göre yazların serin ve yağışlı, kışların soğuk ve kurak geçtiği iklim tipi kaç numara ile gösterilmiştir?

A) I B) II C) III D) IV E) V

Bir " LİMİT " klasiği

LİMİT YAYINLARI

2022 YKS

TYT

BENZER SORULAR

ÖSYM

COĞRAFYA

Bir araştırma için yapılan ankete katılanlar, yaptıkları işler hakkında şu bilgileri vermiştir:

I. Katılımcı: Bir lisede öğretmen olarak görev yapıyorum.

II. Katılımcı: Kendi arazimde seracılık yapmaktayım.

III. Katılımcı: Uluslararası bir yazılım şirketinde müdürüm.

IV. Katılımcı: Bir otobüs firmasında şoförüm.

V. Katılımcı: Bir tekstil fabrikasında işçiyim.

Bu bilgilere göre hangi katılımcının ikincil ekonomik faaliyet grubunda yer alan bir işte çalıştığı söylenebilir?

A) I. B) II. C) III. D) IV. E) V.

LİMİT YAYINLARI

KURUMSAL AYT COĞRAFYA SORU BANKASI

Aşağıda beş öğrencinin babalarının meslekleri hakkında bilgiler verilmiştir.

Efe: Benim babam Antalya'da turist rehberi olarak çalışıyor.

Defne: Benim babam Soma'da maden kömürü ocağında çalışıyor.

Alper: Benim babam çocuk doktorudur.

Ayşegül: Benim babam özel bir bankada çalışıyor.

Yağız: Benim babam bir şirkette güvenlik görevlisidir.

Buna göre, hangi öğrencinin babası diğerlerinden farklı bir sektörde çalışmaktadır?

A) Efe B) Defne C) Alper D) Ayşegül E) Yağız

Bir " LİMİT " klasiği

LİMİT YAYINLARI

2022 YKS

TYT

BENZER SORULAR

ÖSYM

COĞRAFYA

Aşağıdaki haritada bazı alanlar numaralandırılarak gösterilmiştir.

Bu alanların hangisinde afet oluşturabilecek büyüklükte; deprem, volkanik patlamalar ve orman yangınlarının tümünün görülme olasılığı yüksektir?

A) I B) II C) III D) IV E) V

ÖSYM
hakları ÖSYM
şi, kurum

LİMİT YAYINLARI

TYT COĞRAFYA SORU BANKASI

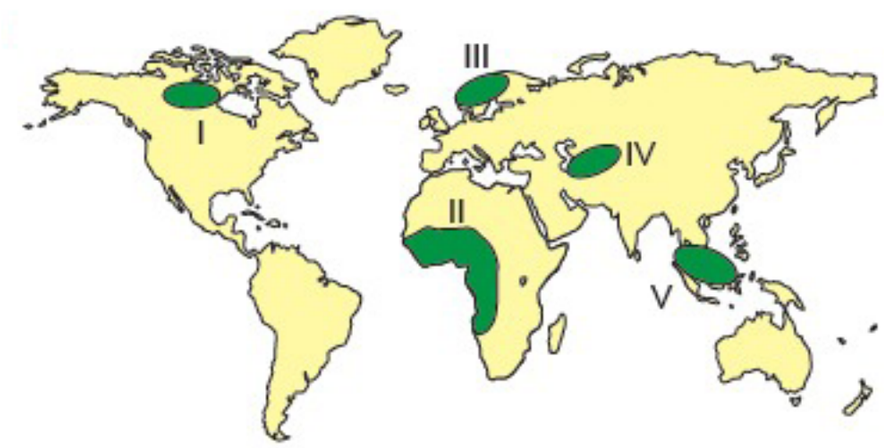

"Heyelan, sel ve taşkın, deprem ve tsunami gibi sıra dışı doğa olaylarının tamamı bu bölgede görülür." **diyen bir bilim adamı haritadaki numaralandırılan taralı alanlardan hangisini örnek olarak gösterebilir?**

A) I B) II C) III D) IV E) V

Bir " LİMİT " klasiği

LİMİT YAYINLARI

2022 YKS

AYT

BENZER SORULAR

ÖSYM

COĞRAFYA

Ekstrem doğa olaylarının büyük çoğunluğu Dünya'nın doğal sistemleri ile ilişkilidir. Ancak Dünya için astronomik kökenli etkenler de büyük tehlikelere neden olabilmektedir. Örneğin atmosfere giren büyük gök taşları veya dev asteroitler yer kabuğuna çarptıklarında onlarca atom bombası şiddetinde patlamalara neden olabilir.

Bu ekstrem doğa olayının yaşanması durumunda aşağıdaki olaylardan hangisinin gerçekleşmesi beklenmez?

A) Yeryüzünde krater oluşumu

B) Mega tsunami oluşumu

C) Güneş'teki patlamaların artması

D) İklim değişikliği

E) Kitlesel yok oluş

maksızın

LİMİT YAYINLARI

AYT COĞRAFYA SORU BANKASI

Aşağıdakilerden hangisi astronomik kökenli ekstrem olaylardan biridir?

A) Kuraklık B) Tsunami C) Deprem

D) Meteor düşmesi E) Erozyon

Bir " LİMİT " klasiği

LİMİT YAYINLARI

2022 YKS

AYT

BENZER SORULAR

ÖSYM

COĞRAFYA

Aşağıda bir yerleşme tipinin bazı özellikleri verilmiştir:

- Ekonomik yapısı çoğunlukla tarım ve hayvancılığa dayanmaktadır.
- Sağlık ve eğitim olanakları bakımından bazı yetersizlikler görülebilir.
- İnsanlar arasında sosyal ilişkiler genellikle güçlüdür.
- Türkiye'deki en küçük idari yerleşme birimini oluşturur.

Bu yerleşme tipinin aşağıdakilerden hangisi olması beklenir?

A) Kom B) Köy C) Ağıl D) Oba E) Dam

Soruda ÖSYM'nin yazılı izni olmadan kullanılamaz.

LİMİT YAYINLARI

AYT COĞRAFYA SORU BANKASI

- Karadeniz'e özgü bir yerleşme türüdür. Sakarya, Kocaeli, Bolu, Sinop, Samsun ve Ordu'da yaygın olarak görülür.
- Serdiven (Sakarya), Dörtdivan (Bolu) ve Eldivan (Çankırı) olarak da adlandırılır.

Bazı özellikleri verilen köy altı kırsal yerleşme aşağıdakilerden hangisidir?

A) Mezra B) Ağıl C) Kom D) Oba E) Divan

Bir “ LİMİT ” klasiği

LİMİT YAYINLARI

2022 YKS

AYT

BENZER SORULAR

ÖSYM

COĞRAFYA

Türkiye’de demir yolu ulaşımını kullanarak gezi yapmak isteyen bir turist, seyahatine İstanbul’dan başlamıştır.

Bu turist yalnızca trenle seyahat ederek aşağıdaki şehirlerden hangisine ulaşamaz?

A) Ankara B) Erzurum C) Antalya D) Adana E) Malatya

LİMİT YAYINLARI

AYT COĞRAFYA SORU BANKASI

Türkiye’de genellikle sanayi faaliyetlerinin yoğun olduğu kentlerde demir yolu ulaşımı bulunmaktadır.

Aşağıdakilerden hangisi bu genellemeye uymamaktadır?

A) Samsun B) Kayseri C) Bursa D) Manisa E) Gaziantep

Bir " LİMİT " klasiği

LİMİT YAYINLARI

2022 YKS

AYT

BENZER SORULAR

ÖSYM

COĞRAFYA

Türkiye'de demir yolu ulaşımını kullanarak gezi yapmak isteyen bir turist, seyahatine İstanbul'dan başlamıştır.

Bu turist yalnızca trenle seyahat ederek aşağıdaki şehirlerden hangisine ulaşamaz?

A) Ankara B) Erzurum C) Antalya

D) Adana E) Malatya

LİMİT YAYINLARI

KURUMSAL AYT COĞRAFYA SORU BANKASI

Demir yollarının yapımı üzerinde doğal ve beşerî unsurların etkisi fazladır. Ülkemizin dağlık ve engebeli bir ülke olması birçok şehre demir yolu yapımını engellemiştir.

Buna göre;

I. Muğla,
II. Çanakkale,
III. Antalya,
IV. Hakkâri

şehirlerinden hangilerinde demir yolu bulunmaz?

A) I, II B) II, III C) III, IV

D) I, II, III E) , II, III, IV

Bir " LİMİT " klasiği

LİMİT YAYINLARI

2022 YKS

AYT

BENZER SORULAR

ÖSYM

COĞRAFYA

Aşağıdaki haritada bazı yerler numaralandırılarak gösterilmiştir.

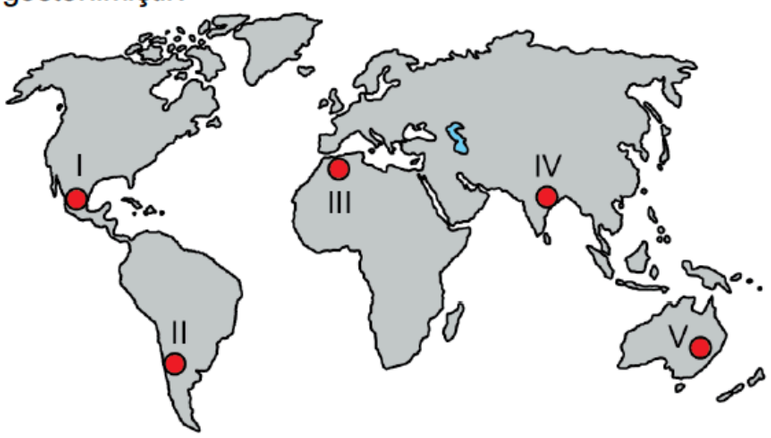

Haritada numaralandırılan alanların hangilerinin kültürel özelliklerinin birbirine daha yakın olması beklenir?

A) I ve II B) I ve III C) II ve IV

D) III ve V E) IV ve V

LİMİT YAYINLARI

KURUMSAL AYT COĞRAFYA SORU BANKASI

Aşağıdaki haritada bazı yerler numaralandırılarak koyu renkle gösterilmiştir.

Bu yerlerden hangileri aynı kültür bölgesi içerisinde yer alır?

A) I ve II B) I ve III C) II ve III

D) II ve IV E) III ve IV

Bir " LİMİT " klasiği

LİMİT YAYINLARI

2022 YKS

TYT

BENZER SORULAR

ÖSYM

TAM İSABET

LİMİT YAYINLARI

TARİH

Sivas Kongresi'nde Mustafa Kemal Paşa başkanlığında ülkenin tamamını temsil etmek üzere Heyet-i Temsiliye oluşturulmuştur. TBMM'nin açılmasına kadar varlığını sürdüren Heyet-i Temsiliye, bir yürütme organı gibi çalışmıştır.

Aşağıdakilerden hangisi, Heyet-i Temsiliye'nin yürütme organı olarak yaptığı çalışmalardan biridir?

A) Millî cemiyetlerin birleştirilmesi

B) İstiklâl Mahkemelerinin kurulması

C) Ali Fuat Paşa'nın Kuvayımilliye birliklerine komutan atanması

D) *İrade-i Millîye* gazetesinin yayımlanması

E) Amerikan manda ve himayesinin kesin bir dille reddedilmesi

TYT-AYT TARİH SORU BANKASI

Sivas Kongresi'nde Temsil Heyeti'ne yeni delegeler eklenerek yetki alanı tüm yurdu kapsayacak şekilde genişletilmiştir. Son eklemelerle ulusallaşan Temsil Heyeti bir hükûmet gibi hareket edebilme özelliği kazanmıştır.

Aşağıdakilerden hangisi Temsil Heyeti'nin bu özelliği kullandığını kanıtlamaktadır?

A) İradeimilliye gazetesinin çıkarılmasını kararlaştırması
B) Heyet başkanlığına Mustafa Kemal'in getirilmesi
C) Temsil Heyeti üye sayısının 9'dan, 16'ya çıkarılması
D) Ali Fuat Cebesoy'un Batı Cephesi'ne atanması
E) Cemiyetlerin tek çatı altında toplatılması

Bir " LİMİT " klasiği

LİMİT YAYINLARI

2022 YKS

AYT

BENZER SORULAR

ÖSYM

TARİH

Osmanlı Devleti'nde Fetret Devri'nin yaşanmasına sebep olan savaş, aşağıdakilerden hangisidir?

A) Varna B) Kosova C) Ankara

D) Niğbolu E) Mohaç

LİMİT YAYINLARI

TYT-AYT TARİH SORU BANKASI

1402'de Timur Devleti ile Osmanlı Devleti arasında Ankara Savaşı yapılmıştır.

Aşağıdakilerden hangisi, bu savaşın sonuçları arasında gösterilemez?

A) İstanbul'un fethi gecikmiştir.
B) Anadolu'nun siyasi yapısında değişiklikler olmuştur.
C) Timur Ankara'yı merkez yaparak batıya ilerleyişini sürdürmüştür.
D) Osmanlı Devleti yıkılmanın eşiğine gelmiştir.
E) Osmanlı'da veraset kavgaları başlamıştır.

Bir “ LİMİT ” klasiği

LİMİT YAYINLARI

2022 YKS

AYT

BENZER SORULAR

ÖSYM

TAM İSABET

LİMİT YAYINLARI

TARİH

Klasik Dönem’de Osmanlı padişahının ferman ve berat gibi emirnameleri üzerine tuğra çeken Divan görevlisi aşağıdakilerden hangisidir?

A) Kazasker B) Nişancı C) Defterdar

D) Reisülküttap E) Kaptanıderya

İzni olmaksızın

TYT-AYT TARİH SORU BANKASI

Divanda alınan kararları yazan, toprak ve tapu kayıtlarını tutan, padişahın ferman ve beratlarına tuğrasını çeken, Yükselme Dönemi’ne kadar iç ve dış yazışmalardan sorumlu olan Divanıhümayun üyesi aşağıdakilerden hangisidir?

A) Defterdar
B) Kazasker
C) Reisülküttap
D) Nişancı
E) Şeyhülislam

Bir " LİMİT " klasiği

LİMİT YAYINLARI

2022 YKS

AYT

BENZER SORULAR

ÖSYM

TARİH

Rumların Doğu Karadeniz'de Pontus devleti kurmaya yönelik faaliyetleri, Türklerin silahlanarak savunmaya geçmelerine neden olmuştur. Bu gelişmelerin Avrupa basınına Türklerin Rumları katlettiği şeklinde yansıması üzerine İngiliz Hükûmeti, Osmanlı Devleti'ni uyarmıştır. Bu olayları araştırmak ve sorunları çözmek amacıyla Mustafa Kemal Paşa IX. Ordu Müfettişi olarak bölgeye gönderilmiştir.

Bu bilgiden hareketle aşağıdakilerden hangisi söylenemez?

A) Türkler, Rumlara karşı kendilerini korumak amacıyla silahlanmışlardır.

B) Mustafa Kemal Paşa, Doğu Karadeniz'de sükûneti sağlamakla görevlendirilmiştir.

C) Rumlar, Doğu Karadeniz'de bir devlet kurmak için faaliyet göstermişlerdir.

D) Mustafa Kemal Paşa, İstanbul Hükûmetinin beklentileri doğrultusunda görev yapmıştır.

E) Avrupa basını, Anadolu'da cereyan eden olayları tek taraflı olarak aktarmıştır.

LİMİT YAYINLARI

TYT-AYT TARİH SORU BANKASI

Mustafa Kemal 9. Ordu Müfettişi olarak 19 Mayıs 1919'da Samsun'a ayak basmıştır. Görevi Doğu Karadeniz'deki Türk halkına Mondros Ateşkesi'nin şartlarını benimsetmek ve bu doğrultuda silahlanmış Türk çetelerinin elinden silahları toplamaktı. Mustafa Kemal Samsun'da yaptığı çalışmalar sonucunda hazırladığı raporda şu ifadeleri kullanmıştır: "Bölge asayişi serkeş Rumların mütecaviz tavırlarından bozulmuştur. Türk halkı pek tabi izzet ve namus mücadelesi vermektedir."

Samsun Raporu ile ilgili olarak;

I. Mustafa Kemal'in görevi kapsamında hazırlanmıştır.
II. Türk tarafının haklılığını konu almıştır.
III. Kargaşaların Türklerden kaynaklanmadığı ifade edilmiştir.

yorumlarından hangileri yapılabilir?

A) Yalnız I B) Yalnız II C) Yalnız III D) I ve II E) I, II ve III

Bir " LİMİT " klasiği

LİMİT YAYINLARI

2022 YKS

AYT

BENZER SORULAR

ÖSYM

TARİH

Aşağıdakilerden hangisi donanma kurarak Batı Anadolu'da denizcilik yapan Türk beyliklerinden biri <u>değildir</u>?

A) Karesi B) Menteşe C) Saruhan

D) Karaman E) Aydın

ÖSYM
telif hakları
hiçbir kişi, kur

LİMİT YAYINLARI

KURUMSAL TYT-AYT TARİH SORU BANKASI

Aşağıda verilen Anadolu beyliklerinden hangisi denizcilikte gelişme <u>göstermemiştir</u>?

A) Candaroğulları

B) Karesioğulları

C) Aydınoğulları

D) Karamanoğulları

E) Menteşeoğulları

Bir “ LİMİT ” klasiği

LİMİT YAYINLARI

2022 YKS

AYT

BENZER SORULAR

ÖSYM

TARİH

Mısır’da bulunan ve Rosetta Taşı adı verilen bir kitabede aynı metin; Grek alfabesi, demotik yazı ve hiyeroglif olarak yazılmıştır. Taşın üç farklı yazı tipi ile yazılması o güne kadar okunamayan hiyerogliflerin sırrının çözülmesini sağlamıştır.

Buna göre hiyerogliflerin çözümlenmesinde kullanılan tarihe yardımcı bilim dalı aşağıdakilerden hangisidir?

A) Heraldik B) Etnografya C) Nümizmatik

D) Kronoloji E) Paleografya

LİMİT YAYINLARI

KURUMSAL TYT-AYT TARİH SORU BANKASI

Eskişehir yakınlarında ortaya çıkan kitabenin incelenmesi ve okunması;

I. epigrafya,

II. heraldik,

III. paleografya

bilim dallarından hangilerinin çalışma alanına girer?

A) Yalnız I B) I ve II C) I ve III

D) II ve III E) I, II ve III

Bir " LİMİT " klasiği

LİMİT YAYINLARI

2022 YKS

AYT

BENZER SORULAR

ÖSYM

TARİH

Hilafetin Abbasilere geçmesinden sonra orduda Türklerin sayısının ve etkinliğinin artması, İran kökenlilerin yönetimde yüksek makamlara getirilmesi dikkate alındığında aşağıdakilerden hangisine ulaşılabilir?

A) Emevi Dönemi mevalî politikasından vazgeçildiğine

B) Gayrimüslimlerin de asker ve memur olabildiğine

C) Türkçe ve Farsçanın devlet dili olduğuna

D) Şiiliğin resmî mezhep hâline geldiğine

E) Halifenin yetkisinin dinî alanla sınırlandırıldığına

LİMİT YAYINLARI

KURUMSAL TYT-AYT TARİH SORU BANKASI

Abbasilerin Emevilerden farklı olarak Arap milliyetçiliği politikasını takip etmeyip ümmetçi anlayışla hareket etmesinin aşağıdakilerden hangisine ortam hazırladığı savunulamaz?

A) Devletin başkentinin Bağdat'a taşınması

B) Türklerin Müslüman olmaya başlaması

C) Türklere vali ya da komutan olarak görev vermeleri

D) Kültürel etkileşimin hız kazanması

E) Toplumsal kaynaşmanın kolaylaşması

Bir " LİMİT " klasiği

LİMİT YAYINLARI

2022 YKS

AYT

BENZER SORULAR

ÖSYM

TARİH

Selçuklu veziri Nizamülmülk, ikta dağıtımı yaparken askerlere ülkenin farklı yerlerinden vergi gelirleri tahsis ederdi. Örneğin bir ikta sahibine gelirinin yarısını Rum bölgesinden diğer yarısını ise Horasan bölgesinden aktarırdı.

Nizamülmülk'ün iktaları hisseler hâlinde dağıtmasının amacı aşağıdakilerden hangisidir?

A) Merkezî otoriteyi güçlendirmek

B) Yeni bölgelerin fethini kolaylaştırmak

C) Gayrimüslimleri vergiden muaf tutmak

D) Para ekonomisini geliştirmek

E) Yaya ordusuna asker toplamak

Bu soruların telif hakları ÖSYM'
hiçbir kişi, kuru

LİMİT YAYINLARI

KURUMSAL TYT-AYT TARİH KONU ANLATIM FÖYLERİ

Büyük Selçuklu Devleti'nde ikta sistemi ünlü vezir Nizamülmülk tarafından düzenlenmiştir. Askerî ve idari iktaları tek elden toplayan Nizamülmülk iktaların merkezî bürokrasi tarafından dağıtılması ve birkaç yılda bir el değiştirmesi uygulamasını getirmiştir.

Bu uygulamanın amaçları arasında aşağıdakilerden hangisinin yer aldığı söylenemez?

A) Yerel beylerin güçlenmesini engellemek

B) Ülke topraklarının bütünlüğünü korumak

C) Taşra sistemindeki güç dengelerini yeniden düzenlemek

D) Feodal oluşumların önüne geçmek

E) Siyasi istikrarın kesintiye uğramasını engellemek

Bir “ LİMİT ” klasiği

LİMİT YAYINLARI

2022 YKS

AYT

BENZER SORULAR

ÖSYM

TARİH

Mısır’da bulunan ve Rosetta Taşı adı verilen bir kitabede aynı metin; Grek alfabesi, demotik yazı ve hiyeroglif olarak yazılmıştır. Taşın üç farklı yazı tipi ile yazılması o güne kadar okunamayan hiyerogliflerin sırrının çözülmesini sağlamıştır.

Buna göre hiyerogliflerin çözümlenmesinde kullanılan tarihe yardımcı bilim dalı aşağıdakilerden hangisidir?

A) Heraldik B) Etnografya C) Nümizmatik

D) Kronoloji E) Paleografya

LİMİT YAYINLARI

KURUMSAL TYT-AYT TARİH KONU ANLATIM FÖYLERİ

Balıkesir’in Edremit ilçesindeki Kazdağları’nın eteklerinde milattan önce 10. yüzyılda kurulduğu düşünülen, bazı kaynaklara göre tarihi milattan önce 2 bin yılına uzanan Antandros Antik Kenti’nde, üzerinde 22 satırdan oluşan kararnamenin (dekret) yer aldığı 2 bin 200 yıllık yazıt bulunmuştur.Bu dekrette, Bergama Kralı Eumenes ve Attalos tarafından Antandros’a gönderilmiş olan bir komutanın onurlandırılmasına ve ona imtiyazlı davranılmasına ilişkin emirname içermektedir.

“Dekret”**in bulunması ve incelenmesinde tarihe yardımcı olan bilim dallarının hangisinden faydalanıldığı söylenemez?**

A) Diplomasi B) Antropoloji C) Paleografya

D) Arkeoloji E) Epigrafi

Bir " LİMİT " klasiği

LİMİT YAYINLARI

2022 YKS

AYT

BENZER SORULAR

ÖSYM

TARİH

Aşağıdakilerden hangisi donanma kurarak Batı Anadolu'da denizcilik yapan Türk beyliklerinden biri <u>değildir</u>?

A) Karesi B) Menteşe C) Saruhan

D) Karaman E) Aydın

ÖSYM telif hakkı... hiçbir kişi, kuru...

LİMİT YAYINLARI

KURUMSAL TYT-AYT TARİH KONU ANLATIM FÖYLERİ

Kerem, Anadolu'da kurulan II. Türk beyliklerinden;

- Karesioğulları'nın, Balıkesir-Çanakkale çevresinde kurulduğu,
- Menteşeoğulları'nın, Muğla-Milas çevresinde kurulduğu,
- Aydınoğullarının, İzmir ve çevresinde kurulduğu,
- Saruhanoğulları'nın, Manisa ve çevresinde kurulduğu

bilgilerini arkadaşlarıyla paylaşmıştır.

Kerem'in verdiği bilgilerden hareketle bu devletlerin ortak özelliği aşağıdakilerden hangisi olabilir?

A) Sanatla uğraşmaları

B) Denizcilikle uğraşmaları

C) Hayvancılığa önem vermeleri

D) Haçlılarla savaşmaları

E) Hukuka önem vermeleri

Bir " LİMİT " klasiği

LİMİT YAYINLARI

2022 YKS

AYT

BENZER SORULAR

ÖSYM

TAM İSABET

LİMİT YAYINLARI

TARİH

Klasik Dönem'de Osmanlı padişahının ferman ve berat gibi emirnameleri üzerine tuğra çeken Divan görevlisi aşağıdakilerden hangisidir?

A) Kazasker B) Nişancı C) Defterdar

D) Reisülküttap E) Kaptanıderya

KURUMSAL TYT-AYT TARİH KONU ANLATIM FÖYLERİ

Kimim Benim: ----

- Kalemiye sınıfa mensup bir divan üyesiyim.
- Kanuni Dönemi'nde itibaren tımar sisteminin düzenlenmesi ve dağıtılması görevini üstlendim
- Divanda padişah alınan her türlü ferman ve berata padişahın tuğrası çekerim.

Bu bilgilere bakıldığında başlık kısmına aşağıdakilerden hangisi getirilmelidir?

A) Nişancı B) Kazasker C) Defterdar

D) Reisülküttap E) Veziriazam

Bir " LİMİT " klasiği

LİMİT YAYINLARI

2022 YKS

AYT

BENZER SORULAR

ÖSYM

TARİH

Aşağıdakilerden hangisi, Millî Mücadele yıllarında Fransa'nın İngiltere ile görüş ayrılığına düştüğünü göstermektedir?

A) Ankara Antlaşması'nın imzalanması

B) Sevr Antlaşması'nın imzalanması

C) San Remo Görüşmeleri'nin yapılması

D) Malta sürgünlerinin serbest bırakılması

E) İstanbul'un resmen işgal edilmesi

ÖSYM

LİMİT YAYINLARI

KURUMSAL TYT-AYT TARİH KONU ANLATIM FÖYLERİ

Millî Mücadele Dönemi'nde gerçekleşen,

I. TBMM ile Fransa arasında Ankara Antlaşması'nın imzalanması,

II. İtilaf Devletleri ile TBMM arasında Londra Konferansı'nın toplanması,

III. TBMM ile Sovyet Rusya arasında Moskova Antlaşması'nın imzalanması

gelişmelerden hangileri İtilaf Devletleri arasında görüş ayrılığı yaşandığının kanıtıdır?

A) Yalnız I B) Yalnız II C) Yalnız III

D) I ve II E) I, II ve III

Bir " LİMİT " klasiği

LİMİT YAYINLARI

2022 YKS

AYT

BENZER SORULAR

ÖSYM

TARİH

Osmanlı Devleti'nde görülen;

I. şehzadelerin lalaları gözetiminde sancağa çıkarılması,

II. hanedanın erkek üyelerinin tahta çıkma hakkı olması,

III. en büyük hanedan üyesinin tahta çıkma kuralının getirilmesi

uygulamalarından hangilerinin taht kavgalarını önlemeyi amaçladığı söylenebilir?

A) Yalnız I B) Yalnız II C) Yalnız III

D) I ve II E) II ve III

LİMİT YAYINLARI

TYT-AYT TARİH SORU BANKASI

Osmanlı Devleti'nde XVII. yüzyıla gelindiğinde ekber ve erşed sisteminin benimsenmesi;

I. padişahlığa geçişte rekabetin ortadan kalkması,

II. padişahların yetişme biçimine değişiklik getirmesi,

III. devletin rejiminin değişmesi

durumlarından hangilerine ortam hazırlamıştır?

A) Yalnız I B) Yalnız II C) I ve II

D) I ve III E) II ve III

Bir " LİMİT " klasiği

LİMİT YAYINLARI

2022 YKS

AYT

BENZER SORULAR

ÖSYM

TARİH

Rumların Doğu Karadeniz'de Pontus devleti kurmaya yönelik faaliyetleri, Türklerin silahlanarak savunmaya geçmelerine neden olmuştur. Bu gelişmelerin Avrupa basınına Türklerin Rumları katlettiği şeklinde yansıması üzerine İngiliz Hükûmeti, Osmanlı Devleti'ni uyarmıştır. Bu olayları araştırmak ve sorunları çözmek amacıyla Mustafa Kemal Paşa IX. Ordu Müfettişi olarak bölgeye gönderilmiştir.

Bu bilgiden hareketle aşağıdakilerden hangisi söylenemez?

A) Türkler, Rumlara karşı kendilerini korumak amacıyla silahlanmışlardır.

B) Mustafa Kemal Paşa, Doğu Karadeniz'de sükûneti sağlamakla görevlendirilmiştir.

C) Rumlar, Doğu Karadeniz'de bir devlet kurmak için faaliyet göstermişlerdir.

D) Mustafa Kemal Paşa, İstanbul Hükûmetinin beklentileri doğrultusunda görev yapmıştır.

E) Avrupa basını, Anadolu'da cereyan eden olayları tek taraflı olarak aktarmıştır.

LİMİT YAYINLARI

TYT-AYT TARİH SORU BANKASI

Mustafa Kemal 9. Ordu Müfettişi olarak 19 Mayıs 1919'da Samsun'a ayak basmıştır. Görevi Doğu Karadeniz'deki Türk halkına Mondros Ateşkesi'nin şartlarını benimsetmek ve bu doğrultuda silahlanmış Türk çetelerinin elinden silahları toplamaktı. Mustafa Kemal Samsun'da yaptığı çalışmalar sonucunda hazırladığı raporda şu ifadeleri kullanmıştır: "Bölge asayişi serkeş Rumların mütecaviz tavırlarından bozulmuştur. Türk halkı pek tabi izzet ve namus mücadelesi vermektedir."

Samsun Raporu ile ilgili olarak;

I. Mustafa Kemal'in görevi kapsamında hazırlanmıştır.
II. Türk tarafının haklılığını konu almıştır.
III. Kargaşaların Türklerden kaynaklanmadığı ifade edilmiştir.

yorumlarından hangileri yapılabilir?

A) Yalnız I B) Yalnız II C) Yalnız III

D) I ve II E) I, II ve III

Bir " LİMİT " klasiği

LİMİT YAYINLARI

2022 YKS

AYT

BENZER SORULAR

ÖSYM

TARİH

Rumların Doğu Karadeniz'de Pontus devleti kurmaya yönelik faaliyetleri, Türklerin silahlanarak savunmaya geçmelerine neden olmuştur. Bu gelişmelerin Avrupa basınına Türklerin Rumları katlettiği şeklinde yansıması üzerine İngiliz Hükûmeti, Osmanlı Devleti'ni uyarmıştır. Bu olayları araştırmak ve sorunları çözmek amacıyla Mustafa Kemal Paşa IX. Ordu Müfettişi olarak bölgeye gönderilmiştir.

Bu bilgiden hareketle aşağıdakilerden hangisi söylenemez?

A) Türkler, Rumlara karşı kendilerini korumak amacıyla silahlanmışlardır.

B) Mustafa Kemal Paşa, Doğu Karadeniz'de sükûneti sağlamakla görevlendirilmiştir.

C) Rumlar, Doğu Karadeniz'de bir devlet kurmak için faaliyet göstermişlerdir.

D) Mustafa Kemal Paşa, İstanbul Hükûmetinin beklentileri doğrultusunda görev yapmıştır.

E) Avrupa basını, Anadolu'da cereyan eden olayları tek taraflı olarak aktarmıştır.

LİMİT YAYINLARI

TYT-AYT TARİH SORU BANKASI

Samsun'u ve Merzifon'u işgal altında tutan İngilizler Doğu Karadeniz'deki kargaşanın büyümesinden rahatsızlık duymuş ve Osmanlı Devleti'ne baskı yaparak bölgeye bir memurun gönderilmesini ve asayişin sağlanmasını aksi durumda sonuçlara katlanması gerektiğini bildirmişlerdir. Bunun üzerine Padişah Vahdettin 9. Ordu Müfettişliği göreviyle general Mustafa Kemal'i Samsun'a göndermiştir.

Yalnız bu bilgiler doğrultusunda;

I. İngiltere işgal bölgelerinden çekilmeyi planlamaktadır.
II. Osmanlı Devleti bağımsız karar alamamaktadır.
III. Padişah işgal alanının genişlemesinden endişe duymaktadır.

yorumlarından hangileri yapılamaz?

A) Yalnız I B) Yalnız II C) Yalnız III D) I ve III E) II ve III

Bir “ LİMİT ” klasiği

LİMİT YAYINLARI

2022 YKS

AYT

BENZER SORULAR

ÖSYM

TARİH

1921 Anayasası’nın bazı maddeleri aşağıda verilmiştir:

- Hâkimiyet kayıtsız şartsız milletindir. Yönetim şekli, halkın mukadderatını bizzat ve fiilî olarak yönetmesi ilkesine dayanır.
- Yürütme kudreti ve yasama yetkisi, milletin tek ve gerçek temsilcisi olan Büyük Millet Meclisinde belirir ve toplanır.
- Türkiye Devleti, Büyük Millet Meclisi tarafından idare olunur ve hükûmeti “Türkiye Büyük Millet Meclisi Hükûmeti” adını taşır.

Bu maddelere göre 1921 Anayasası ile ilgili aşağıdakilerden hangisi söylenemez?

A) Cumhuriyet rejimine geçişte önemli bir aşamadır.

B) Güçler ayrılığını esas almaktadır.

C) İstanbul Hükûmetini yok saymaktadır.

D) Meclis Hükûmeti sistemini öngörmektedir.

E) Ulusal egemenlik kavramına dayanmaktadır.

İzni olmaksızın

LİMİT YAYINLARI

TYT-AYT TARİH SORU BANKASI

Teşkilat-ı Esasiye’ye göre;

- Egemenlik kayıtsız şartsız millletindir.
- Türk Devleti, TBMM tarafından idare olunur.
- Kanun yapma ve kanunları uygulama gücü mecliste toplanmıştır.

Bu maddelere göre;

I. Padişahın siyasi ve hukuki yetkileri TBMM tarafından üstlenilmiştir.
II. Millet egemenliği önemsenmiştir.
III. Osmanlı Devleti fiilen yok sayılmıştır.

yargılarından hangilerine ulaşılabilir?

A) Yalnız II B) I ve II C) I ve III D) II ve III E) I, II ve III

Bir “ LİMİT ” klasiği

LİMİT YAYINLARI

2022 YKS

AYT

BENZER SORULAR

ÖSYM

TARİH

Mısır’da bulunan ve Rosetta Taşı adı verilen bir kitabede aynı metin; Grek alfabesi, demotik yazı ve hiyeroglif olarak yazılmıştır. Taşın üç farklı yazı tipi ile yazılması o güne kadar okunamayan hiyerogliflerin sırrının çözülmesini sağlamıştır.

Buna göre hiyerogliflerin çözümlenmesinde kullanılan tarihe yardımcı bilim dalı aşağıdakilerden hangisidir?

A) Heraldik B) Etnografya C) Nümizmatik

D) Kronoloji E) Paleografya

LİMİT YAYINLARI

KURUMSAL TYT-AYT TARİH SORU BANKASI

Mezopotamya’da yapılan kazılarda Sümerlere ait kil tabletlere ulaşılmıştır. Yapılan incelemeler sonucunda tabletlerin hesaplar, tarihler, ürün adları ve türleri gibi zirai bilgiler içeren kayıtlar olduğu ortaya çıkmıştır.

Tarih bilimi bu bilgilere ulaşmak için;

I. arkeoloji,

II. antropoloji,

III. paleografya

bilim dallarının hangilerinden yardım almıştır?

A) Yalnız I B) Yalnız II C) Yalnız III

D) I ve II E) I ve III

Bir " LİMİT " klasiği

LİMİT YAYINLARI

2022 YKS

AYT

BENZER SORULAR

ÖSYM

TARİH

Timar sisteminin;

I. tarım üretiminde istikrarın gözetilmesi,

II. dirlik alanlarında güvenliğin sağlanması,

III. taşrada nüfuzlu ailelerin desteklenmesi

hedeflerinden hangilerine yönelik olduğu savunulabilir?

A) Yalnız I B) Yalnız II C) Yalnız III

D) I ve II E) I, II ve III

LİMİT YAYINLARI

KURUMSAL TYT-AYT TARİH SORU BANKASI

Dirlik araziler, reayanın bir öküzle işletebildiği büyüklükte çiftliklere ayrılmış ve bu çiftliklerin birleşmesi sonucunda tımar sistemi ortaya çıkmıştır. Reayanın ölmesi durumunda çocukları çiftlikleri işletebilir fakat toprağı satma veya aralarında bölüşme hakları yoktur.

Buna göre aşağıdakilerden hangisi söylenemez?

A) Arazilerin bağ ve bahçe gibi küçük birimlere ayrılması önlenmiştir.

B) Toprağın sahibi olan devlet kullanım hakkını reayaya bırakmıştır.

C) Toprağın işletme hakkı miras olarak bırakılabilmiştir.

D) Devletin toprak üzerindeki denetimi zayıflamıştır.

E) Büyük çiftliklerin ve ayrıcalıklı sınıfların ortaya çıkması engellenmiştir.

Bir “ LİMİT ” klasiği

LİMİT YAYINLARI

2022 YKS

AYT

BENZER SORULAR

ÖSYM

TARİH

16 Mart 1921 tarihinde TBMM Hükûmeti ile Sovyet Rusya arasında imzalanan Moskova Antlaşması'yla ilgili aşağıdakilerden hangisi söylenebilir?

A) Sovyet Rusya'nın Anadolu'ya asker göndermesi kabul edilmiştir.

B) Sovyet Rusya'nın Misakımillî'yi tanıması gerçekleşmiştir.

C) Sakarya zaferi sonrasındaki görüşmeler sonucunda imzalanmıştır.

D) Antlaşma sonrasında Ali Fuat Paşa Moskova'ya elçi olarak gönderilmiştir.

E) TBMM Hükûmeti adına antlaşmayı Rauf Bey imzalamıştır.

LİMİT YAYINLARI

KURUMSAL TYT-AYT TARİH SORU BANKASI

16 Mart 1921'de Sovyet Rusya ile TBMM arasında imzalanan Moskova Antlaşması'nın,

I. Sovyet Rusya, Misakımillî'yi tanıyacak.

II. Sovyet Rusya kapitülasyonların kaldırıldığını kabul edecek.

III. İki devlet arasındaki ticaret hacmi büyütülecek.

hükümlerinden hangileri <u>doğrudan</u> siyasi alanla ilgilidir?

A) Yalnız I B) Yalnız II C) Yalnız III D) II ve III E) I, II ve III

Bir “ LİMİT ” klasiği

LİMİT YAYINLARI

2022 YKS

AYT

BENZER SORULAR

ÖSYM

FİZİK

Bir karbon hedefe, X-ışını fotonları gönderilerek serbest kabul edilen elektronlardan saçılan fotonların incelendiği Compton olayında, saçılan fotonların gelen fotonlara göre;

I. hız,
II. momentum,
III. dalga boyu

niceliklerinden hangilerinin büyüklüğü azalır?

A) Yalnız I B) Yalnız II C) I ve III
D) II ve III E) I, II ve III

LİMİT YAYINLARI

KURUMSAL AYT DENEME SINAVI-3

Compton olayını gözlemlemek için yapılan bir deneyde, durgun hâldeki serbest bir elektron üzerine gönderilen X fotonu, elektrona çarptıktan sonra Y fotonu olarak saçılıyor.

Buna göre,

I. frekans,
II. sürat,
III. enerji,
IV. dalga boyu

niceliklerinden hangileri X ve Y fotonları için farklı büyüklüktedir?

A) I ve II B) III ve IV C) I, II ve III
D) I, III ve IV E) II, III ve IV

Bir " LİMİT " klasiği

LİMİT YAYINLARI

2022 YKS

AYT

BENZER SORULAR

ÖSYM

FİZİK

Lunaparka giden Altay, ω açısal sürati ile saat ibresi yönünde dönen bir hedef tahtasına arka arkaya K, L ve M oklarını atıyor. Okların hedef tahtası üzerindeki konumları şekildeki gibi oluyor ve hedef tahtası açısal sürati değişmeden hareketine devam ediyor.

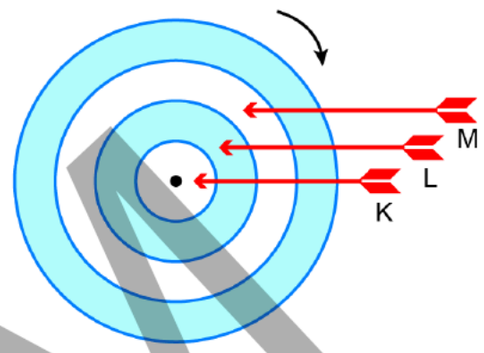

Buna göre K, L, M oklarının çizgisel süratleri sırasıyla v_K, v_L, v_M ile açısal süratleri sırasıyla ω_K, ω_L, ω_M arasındaki ilişkiler aşağıdakilerin hangisinde doğrudur?

	Çizgisel sürat	Açısal sürat
A)	$v_K = v_L = v_M$	$\omega_K = \omega_L = \omega_M$
B)	$v_M > v_L > v_K$	$\omega_M > \omega_L > \omega_K$
C)	$v_K > v_L > v_M$	$\omega_K = \omega_L = \omega_M$
D)	$v_K = v_L = v_M$	$\omega_M > \omega_L > \omega_K$
E)	$v_M > v_L > v_K$	$\omega_K = \omega_L = \omega_M$

Sorular ÖSYM'nin yazılı izni olmaksızın tarafından kullanılamaz.

LİMİT YAYINLARI

KURUMSAL AYT DENEME SINAVI-10

Özdeş K, L ve M cisimlerine sırasıyla 2r, r ve 3r yarıçaplı yörüngelerde düzgün çembersel hareket yaptırılıyor.

Cisimlerin periyotları eşit olduğuna göre,

I. K cismine etki eden merkezcil kuvvet, L cismine etki eden merkezcil kuvvetten küçüktür.

II. M cisminin çizgisel hızı en büyüktür.

III. Cisimlerin açısal hızları eşit büyüklüktedir.

yargılarından hangileri doğrudur?

A) Yalnız I B) I ve II C) I ve III D) I ve III E) I, II ve III

Bir " LİMİT " klasiği

LİMİT YAYINLARI

2022 YKS

AYT

BENZER SORULAR

ÖSYM

FİZİK

Yerküre'ye Güneş dışındaki gök cisimlerinin uyguladığı kuvvetlerin açısal momentuma ve hıza olan etkisinin ihmal edildiği durumda Yerküre, Güneş'in uyguladığı kütle çekim kuvvetinin etkisiyle şekildeki gibi eliptik bir yörüngede dolanmaktadır. Yerküre, A veya B konumundayken Güneş'in merkezine olan uzaklığı sırasıyla r_1 ve r_2 'dir. r_1 uzaklığı r_2 uzaklığından büyüktür.

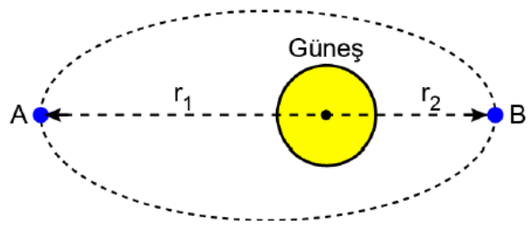

Buna göre Yerküre A veya B konumundayken Güneş-Yerküre sisteminin açısal momentumunun büyüklükleri sırasıyla L_A ve L_B, Yerküre'nin çizgisel hızının büyüklükleri sırasıyla v_A ve v_B arasındaki ilişkiler aşağıdakilerin hangisinde doğrudur?

	Açısal momentumun büyüklüğü	Çizgisel hızın büyüklüğü
A)	$L_A > L_B$	$v_A = v_B$
B)	$L_A = L_B$	$v_A > v_B$
C)	$L_A = L_B$	$v_A < v_B$
D)	$L_A < L_B$	$v_A > v_B$
E)	$L_A > L_B$	$v_A < v_B$

LİMİT YAYINLARI

KURUMSAL AYT DENEME SINAVI-5

Dünya'nın, Güneş etrafındaki dolanımı sırasında izlediği yörünge şekildeki gibi modellenmiştir.

Dünya yörüngesi üzerindeki K noktasından L noktasına gelirken;

I. Dünya ile Güneş arasındaki kütle çekim kuvveti,

II. açısal momentum,

III. dolanım hızı

niceliklerinden hangilerinin büyüklüğü azalır?

A) Yalnız I B) I ve II C) I ve III D) II ve III E) I, II ve III

Bir " LİMİT " klasiği

LİMİT YAYINLARI

2022 YKS

AYT

BENZER SORULAR

ÖSYM

FİZİK

Sürtünmesiz yatay bir düzlemde, bir ucu sabit olan yayın diğer ucuna bağlanan cisim basit harmonik hareket yapmaktadır.

Buna göre bu cisim için,

I. Süratinin en düşük olduğu anda ivmesi en büyük değerini alır.

II. Süratinin en düşük olduğu anda yayın esneklik potansiyel enerjisi en küçük değerini alır.

III. Yayın cisme uyguladığı kuvvet hareket boyunca cismin hızı ile ters yönlüdür.

yargılarından hangileri doğrudur?

A) Yalnız I B) Yalnız II C) Yalnız III

D) I ve II E) II ve III

LİMİT YAYINLARI

KURUMSAL AYT DENEME SINAVI-7

Sürtünmesiz yatay bir düzlem üzerinde ve esnek bir yayın ucuna bağlanmış cisme basit harmonik hareket yaptırılıyor.

Buna göre,

I. Cisim, denge konumundan geçerken yayda oluşan geri çağırıcı kuvvet maksimum büyüklüktedir.

II. Cisim, denge konumundan uzaklaşırken ivmesi artar.

III. Cismin yapmış olduğu hareketin frekansı, bulunduğu ortamın yer çekimi ivmesine bağlıdır.

yargılarından hangileri doğrudur?

A) Yalnız I B) Yalnız II C) I ve II

D) I ve III E) II ve III

Bir " LİMİT " klasiği

LİMİT YAYINLARI

2022 YKS

AYT

BENZER SORULAR

ÖSYM

FİZİK

Einstein tarafından önerilen özel görelilik kuramının dayandığı bazı postülalar bulunmaktadır.

Buna göre,

I. Işık hızının büyüklüğü gözlemcinin hareketinden bağımsızdır.

II. Işık hızının büyüklüğü ışık kaynağının hareketinden bağımsızdır.

III. Fizik yasaları gözlemcinin hareketine göre değişir.

yargılarından hangileri özel görelilik kuramının postülaları arasında yer almaktadır?

A) Yalnız I B) Yalnız II C) Yalnız III

D) I ve II E) I, II ve III

LİMİT YAYINLARI

AYT FİZİK SORU BANKASI

Michelson - Morley deneyinin sonucu, Einstein tarafından özel görelilik kuramı olarak açıklandı.

Buna göre,

I. Fizik yasaları, bütün eylemsiz referans sistemlerinde aynıdır.

II. Gözlemcinin veya ışık kaynağının hızından bağımsız olarak bütün eylemsiz referans sistemlerinde ışığın boşluktaki yayılma hızı aynıdır.

III. Yeterli enerjiye sahip ışık fotonları metalden elektron koparabilir.

ifadelerinden hangileri Einstein'ın özel görelilik kuramının sonuçlarındandır?

A) Yalnız I B) Yalnız II C) I ve II

D) I ve III E) I, II ve III

Bir " LİMİT " klasiği

LİMİT YAYINLARI

2022 YKS

AYT

BENZER SORULAR

ÖSYM

FİZİK

Temel parçacıklar ve bunlar arasındaki etkileşimleri açıklayan standart modelin öngördüğü ve keşfedilen son parçacık Higgs bozonudur. Higgs bozonu ile etkileşen parçacıkların kütle kazandığı öngörülmektedir.

Bu modele göre;

I. foton,
II. elektron,
III. yukarı kuark

parçacıklarından hangileri Higgs bozonu ile etkileşir?

A) Yalnız I B) Yalnız II C) I ve II
D) I ve III E) I, II ve III

LİMİT YAYINLARI

AYT FİZİK SORU BANKASI

Doğada her çeşit madde, fermiyon adı verilen parçacıkların bozonlar aracılığı ile bir araya gelmesiyle oluşmuştur. Bu bozonlardan biri de Higgs bozonudur.

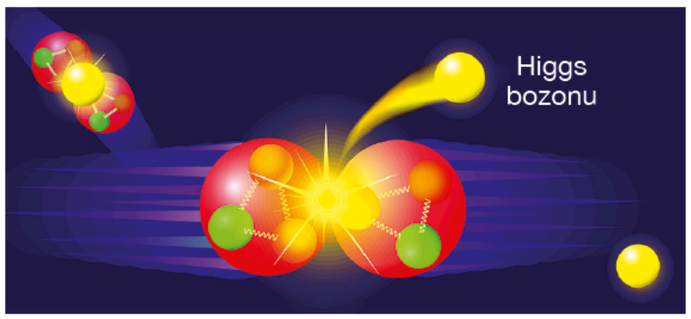

Buna göre Higgs bozonu ile ilgili,

I. Higgs bozonu standart modelde spini sıfır olan tek parçacık olma özelliğini taşımaktadır.

II. Bir parçacığın kütlesi yoksa Higgs alanıyla etkileşmiyor demektir.

III. Foton ve gluonlar Higgs alanıyla etkileşmedikleri için kütlesizdir.

yargılarından hangileri doğrudur?

A) Yalnız I B) Yalnız II C) I ve II
D) I ve III E), II ve III

Bir " LİMİT " klasiği

LİMİT YAYINLARI

2022 YKS

AYT

BENZER SORULAR

ÖSYM

FİZİK

Sürtünmesiz yatay bir düzlemde, bir ucu sabit olan yayın diğer ucuna bağlanan cisim basit harmonik hareket yapmaktadır.

Buna göre bu cisim için,

I. Süratinin en düşük olduğu anda ivmesi en büyük değerini alır.

II. Süratinin en düşük olduğu anda yayın esneklik potansiyel enerjisi en küçük değerini alır.

III. Yayın cisme uyguladığı kuvvet hareket boyunca cismin hızı ile ters yönlüdür.

yargılarından hangileri doğrudur?

A) Yalnız I B) Yalnız II C) Yalnız III

D) I ve II E) II ve III

LİMİT YAYINLARI

AYT FİZİK SORU BANKASI

Denge konumu O noktası olan bir cisim K - L noktaları arasında basit harmonik hareket yapıyor.

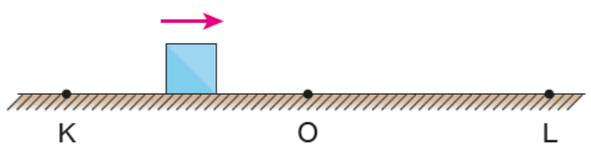

Buna göre,

I. Cisim O noktasından geçerken hız maksimum, kuvvet ve ivme sıfırdır.

II. K ve L noktalarında kuvvet maksimum ve zıt yönlüdür.

III. K ve L noktalarında hız ve ivme sıfırdır.

yargılarından hangileri doğrudur?

A) Yalnız I B) Yalnız II C) I ve II

D) II ve III E) I, II ve III

Bir " LİMİT " klasiği

2022 YKS

AYT

BENZER SORULAR

ÖSYM

FİZİK

Yerküre'ye Güneş dışındaki gök cisimlerinin uyguladığı kuvvetlerin açısal momentuma ve hıza olan etkisinin ihmal edildiği durumda Yerküre, Güneş'in uyguladığı kütle çekim kuvvetinin etkisiyle şekildeki gibi eliptik bir yörüngede dolanmaktadır. Yerküre, A veya B konumundayken Güneş'in merkezine olan uzaklığı sırasıyla r_1 ve r_2 'dir. r_1 uzaklığı r_2 uzaklığından büyüktür.

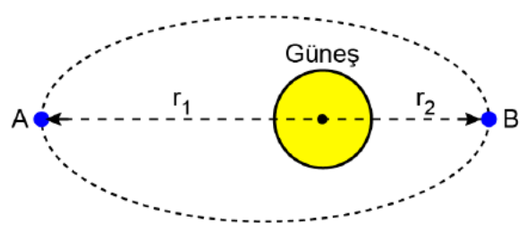

Buna göre Yerküre A veya B konumundayken Güneş-Yerküre sisteminin açısal momentumunun büyüklükleri sırasıyla L_A ve L_B, Yerküre'nin çizgisel hızının büyüklükleri sırasıyla v_A ve v_B arasındaki ilişkiler aşağıdakilerin hangisinde doğrudur?

	Açısal momentumun büyüklüğü	Çizgisel hızın büyüklüğü
A)	$L_A > L_B$	$v_A = v_B$
B)	$L_A = L_B$	$v_A > v_B$
C)	$L_A = L_B$	$v_A < v_B$
D)	$L_A < L_B$	$v_A > v_B$
E)	$L_A > L_B$	$v_A < v_B$

LİMİT YAYINLARI

AYT FİZİK SORU BANKASI

Dünya, Güneş çevresinde elips şeklindeki yörüngede dolanmaktadır.

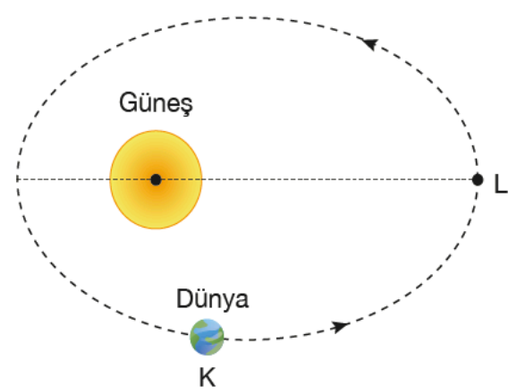

Dünya, yörünge üzerindeki K noktasından L noktasına gelirken,

I. Açısal hızı azalır.

II. Açısal momentumu değişmez.

III. Kütle çekim potansiyel enerjisi azalır.

yargılarından hangileri doğru olur?

A) Yalnız I B) Yalnız II C) I ve II D) I ve III E) I, II ve III

Bir " LİMİT " klasiği

LİMİT YAYINLARI

2022 YKS

AYT

BENZER SORULAR

ÖSYM

FİZİK

Yerküre'ye Güneş dışındaki gök cisimlerinin uyguladığı kuvvetlerin açısal momentuma ve hıza olan etkisinin ihmal edildiği durumda Yerküre, Güneş'in uyguladığı kütle çekim kuvvetinin etkisiyle şekildeki gibi eliptik bir yörüngede dolanmaktadır. Yerküre, A veya B konumundayken Güneş'in merkezine olan uzaklığı sırasıyla r_1 ve r_2 'dir. r_1 uzaklığı r_2 uzaklığından büyüktür.

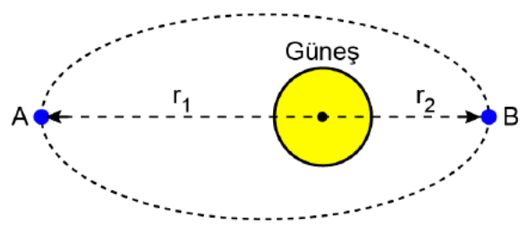

Buna göre Yerküre A veya B konumundayken Güneş-Yerküre sisteminin açısal momentumunun büyüklükleri sırasıyla L_A ve L_B, Yerküre'nin çizgisel hızının büyüklükleri sırasıyla v_A ve v_B arasındaki ilişkiler aşağıdakilerin hangisinde doğrudur?

	Açısal momentumun büyüklüğü	Çizgisel hızın büyüklüğü
A)	$L_A > L_B$	$v_A = v_B$
B)	$L_A = L_B$	$v_A > v_B$
C)	$L_A = L_B$	$v_A < v_B$
D)	$L_A < L_B$	$v_A > v_B$
E)	$L_A > L_B$	$v_A < v_B$

LİMİT YAYINLARI

AYT FİZİK SORU BANKASI

Güneş çevresinde elips şeklindeki yörüngede dolanan Dünya, K, L ve M noktalarından geçerken çizgisel hızının büyüklüğü v_K, v_L ve v_M olmaktadır.

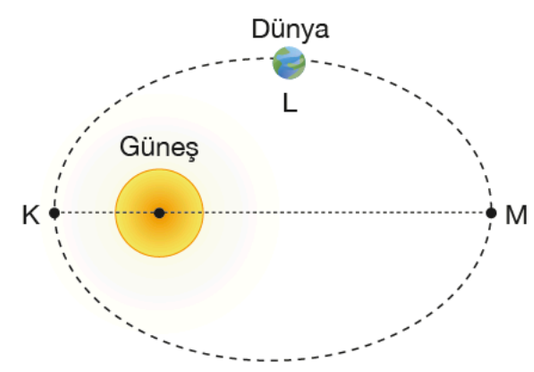

Buna göre v_K, v_L ve v_M arasındaki ilişki nedir?

A) $v_M < v_L < v_K$

B) $v_K < v_L < v_M$

C) $v_L = v_M < v_K$

D) $v_K < v_L = v_M$

E) $v_K = v_L = v_M$

Bir " LİMİT " klasiği

LİMİT YAYINLARI

2022 YKS

AYT

BENZER SORULAR

ÖSYM

FİZİK

Bir karbon hedefe, X-ışını fotonları gönderilerek serbest kabul edilen elektronlardan saçılan fotonların incelendiği Compton olayında, saçılan fotonların gelen fotonlara göre;

I. hız,
II. momentum,
III. dalga boyu

niceliklerinden hangilerinin büyüklüğü azalır?

A) Yalnız I B) Yalnız II C) I ve III
D) II ve III E) I, II ve III

LİMİT YAYINLARI

AYT FİZİK SORU BANKASI

Yüksek enerjili bir X-ışını fotonu ve bir karbon atomunun elektronunun etkileşiminde Compton olayı gerçekleşiyor.

Buna göre gelen ve saçılan fotona ait;

I. yayılma yönü,
II. hızın büyüklüğü,
III. dalga boyu

niceliklerinden hangileri farklıdır?

A) Yalnız I B) Yalnız II C) I ve II
D) I ve III E) I, II ve III

Bir " LİMİT " klasiği

LİMİT YAYINLARI

2022 YKS

AYT

BENZER SORULAR

ÖSYM

FİZİK

Parçacıkların bazı özellikleri hakkında bilgi edinebilmek için düzgün elektrik ve manyetik alandaki hareketleri incelenir. Bunun için uygulanan elektrik veya manyetik alan, yatay doğrultuda olabileceği gibi sayfa düzlemine dik doğrultuda da olabilir. Sayfa düzlemine dik ve düzlemden içeri doğru olan yön ⊗ sembolü ile gösterilirken sayfa düzlemine dik ve düzlemden dışarı doğru olan yön ise ⊙ sembolü ile gösterilir.

Şekildeki pozitif yüklü parçacık, her bir bölgede düzgün ve sabit olan elektrik ve manyetik alandan sadece birinin olduğu bilinen; I. Bölge'den doğrusal bir yörünge izleyerek II. Bölge'ye gelmiş ve II. Bölge'de çembersel bir yörünge çizmiştir.

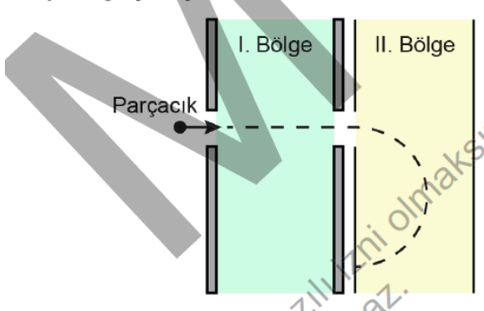

Sürtünmeler ve kütle çekim alanı önemsiz olduğuna göre I. ve II. Bölgelerdeki alanın türü ve alan çizgilerinin yönü aşağıdakilerden hangisi olabilir?

	I. Bölge	II. Bölge
A)	Elektrik alan →	Manyetik alan ⊙
B)	Elektrik alan ←	Manyetik alan ⊗
C)	Manyetik alan ⊙	Elektrik alan ←
D)	Manyetik alan ⊗	Elektrik alan →
E)	Elektrik alan →	Manyetik alan ⊗

Soruları ÖSYM mevzuatına uygun olmaksızın yayınlanmaz. Yayınlanmaz. Yayınlanmaz.

Bir " LİMİT " klasiği

LİMİT YAYINLARI

2022 YKS

AYT

BENZER SORULAR

ÖSYM

TAM İSABET

LİMİT YAYINLARI

FİZİK

AYT FİZİK SORU BANKASI

Özdeş iki yumurtayla iki ayrı deneme yapılmıştır. İlk denemede belirli bir yükseklikten bırakılan yumurta sert zemine çarpıp zıplamadan kırılmıştır. İkinci denemede ise diğer yumurtanın, etrafı yumuşak bir ambalaj köpüğüyle sarılıp aynı yükseklikten, aynı zemine ve aynı şekilde bırakıldığında, zıplamadan durduğu ve kırılmadığı görülmüştür.

Hava sürtünmesi ve köpüğün kütlesi önemsiz olduğuna göre ikinci denemedeki çarpışma sırasında;

I. yumurta ile zemin arasındaki etkileşme süresi,
II. yumurtanın momentumundaki değişim,
III. zeminin yumurtaya uyguladığı ortalama kuvvet

niceliklerinden hangileri ilk denemeye göre artmıştır?

A) Yalnız I B) Yalnız II C) Yalnız III
D) I ve II E) II ve III

Aynı yükseklikten özdeş iki yumurtadan birisi görseldeki gibi sert tabağa bırakılırken diğeri yumuşak bir yastık üzerine bırakılıyor. Sert tabağa düşen yumurta kırılırken yumuşak yastığa düşen yumurta kırılmıyor.

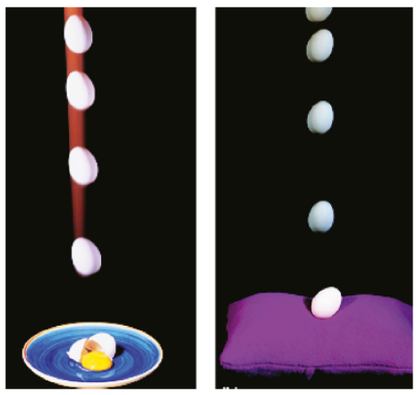

Buna göre bu olay ile ilgili,

I. İkisinin de düşünceye kadar momentum değişimleri eşittir.
II. İki zeminin de yumurtaya uyguladığı itme aynıdır.
III. Sert yüzeyin yumurtanın hızını sıfırlaması için geçen süre daha kısa olduğundan, uyguladığı ortalama kuvvet daha büyüktür.

yargılarından hangileri doğrudur?

A) Yalnız I B) I ve II C) I ve III
D) II ve III E) I, II ve III

Bir " LİMİT " klasiği

LİMİT YAYINLARI

2022 YKS

TYT

BENZER SORULAR

ÖSYM

KİMYA

Özdeş kaplarda bulunan eşit hacimli üç farklı sıvı aynı sıcaklıkta ve aynı sabit eğimle başlangıçta boş olan özdeş toplama kaplarına aynı anda dökülmeye başlanıyor. Belirli bir süre sonra bu toplama kaplarında biriken sıvı hacimleri aşağıdaki şekilde gösteriliyor.

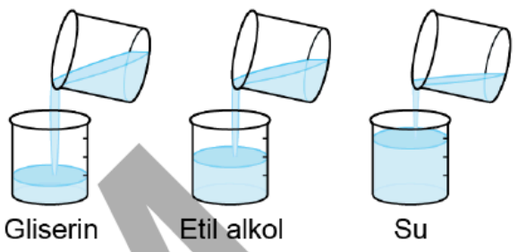

Buna göre,

I. Etil alkolün viskozitesi suyunkinden büyüktür.

II. Moleküller arası çekim kuvveti en güçlü olan sudur.

III. Akmaya karşı en fazla direnç gösteren sıvı gliserindir.

ifadelerinden hangileri doğrudur?
(Sıvıların buharlaşmadığı varsayılacaktır.)

A) Yalnız I B) Yalnız II C) I ve III

D) II ve III E) I, II ve III

M
in yazılı izni olmaksızın
nılamaz

LİMİT YAYINLARI

TYT KİMYA SORU BANKASI

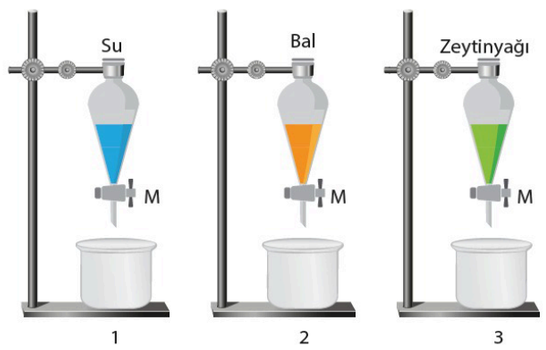

Özdeş ayırma hunilerinde eşit hacimde ve eşit sıcaklıkta belirtilen sıvılar vardır. Bir süre sonra toplama kaplarındaki sıvı seviyeleri ise aşağıdaki gibidir.

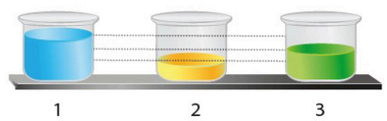

Muslukları aynı anda açılan eşit süre sonunda özdeş toplama kaplarında bulunan sıvı hacimleri arasında 1 > 3 > 2 ilişkisi olduğuna göre,

I. Viskozitesi en fazla olan sıvı sudur.

II. Viskozitesi en fazla olan sıvı baldır.

III. Aynı sürede toplama kabında eşit hacimde sıvı olabilmesi için sıcaklığı en fazla olan bal, en az olan ise su olmalıdır.

yargılardan hangileri yanlıştır?

A) Yalnız I B) Yalnız II C) Yalnız III

D) I ve II E) II ve III

Bir " LİMİT " klasiği

LİMİT YAYINLARI

2022 YKS

TYT

BENZER SORULAR

ÖSYM

LİMİT YAYINLARI

KİMYA

TYT FKB SORU BANKASI

Aşağıda bazı element atomlarının temel hâldeki katman elektron dağılımı verilmiştir.

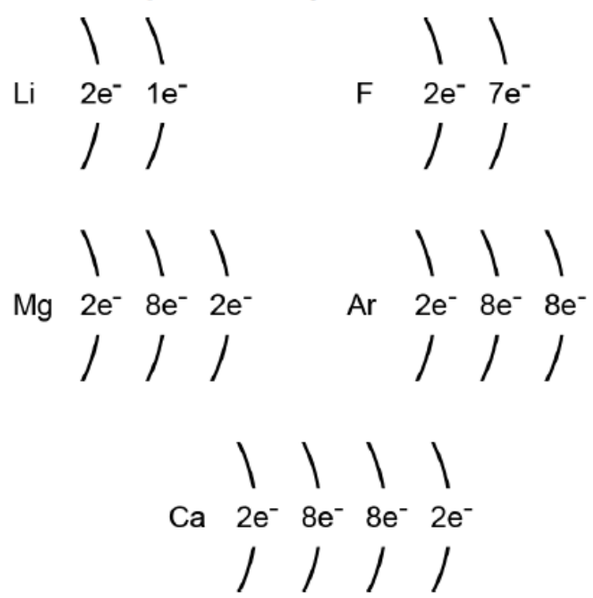

Bu elementlerin periyodik sistemdeki yerleriyle ilgili aşağıdaki ifadelerden hangisi doğrudur?

A) F elementi 2A (2. grup) grubundadır.

B) Li elementi 3. periyottadır.

C) Mg ve Ca elementleri aynı grupta yer alır.

D) Li ve F elementleri aynı grupta yer alır.

E) Ar ve Ca elementleri aynı periyotta yer alır.

Aşağıda bazı elementler ve bu elementlere ait katman elektron dağılımları verilmiştir.

Element	Katman elektron dağılımları
B	2)3)
O	2)6)
Mg	2)8)2)
S	2)8)6)
Ca	2)8)8)2)

Buna göre aşağıdaki ifadelerden hangisi yanlıştır?

A) B, nötr hâlde olup atom numarası 5'tir.

B) O, 2 elektron alarak soygaz kararlılığına ulaşırlar.

C) Mg, 2 elektron vererek anyon oluşturur.

D) S, 3. periyot 6A grubu ametalidir.

E) Ca, bileşik oluştururken son katmandaki 2 elektronu verir.

Bir “ LİMİT ” klasiği

LİMİT YAYINLARI

2022 YKS

TYT

BENZER SORULAR

ÖSYM

KİMYA

Periyodik sistemin 2. periyodunda yer alan temel hâldeki X ve Y atomlarının Lewis sembolleri aşağıda gösterilmiştir.

$\cdot X \cdot$ $\quad$ $\cdot \ddot{\underset{\cdot\cdot}{Y}} \cdot$

X ve Y elementlerinin oluşturacağı oktet kuralına uyan bileşiğin formülü aşağıdakilerden hangisidir?

A) XY B) X_2Y C) XY_2

D) XY_3 E) X_3Y

Soruların telif hakkı ÖSYM'
hiçbir kişi, kuru

LİMİT YAYINLARI

TYT FKB SORU BANKASI

Element	1. Katman	2. Katman	3. Katman
X	2	8	1
Y	2	7	–

Yukarıda tabloda X ve Y'nin katmanlarında bulunan elektronlara göre aralarında oluşacak bileşiğin Lewis elektron nokta yapısı aşağıdakilerden hangisinde doğru olarak verilmiştir?

A) $X^{2+}[Y:]^{2-}$ B) $X^{2+}[:\ddot{\underset{\cdot\cdot}{Y}}:]^{2-}$ C) $X^{+}[:\ddot{\underset{\cdot\cdot}{Y}}:]^{2-}$

D) $X^{+}[:\ddot{\underset{\cdot\cdot}{Y}}:]^{-}$ E) $[:X:]^{2+}[:\ddot{\underset{\cdot\cdot}{Y}}:]^{2-}$

Bir " LİMİT " klasiği

LİMİT YAYINLARI

2022 YKS

TYT

BENZER SORULAR

ÖSYM

KİMYA

Kükürt ve oksijen elementlerinin aşağıdaki tabloda verilen kütleleri tepkimeye girdiğinde X, Y ve Z bileşikleri oluşuyor.

Bileşik	Kükürdün kütlesi (g)	Oksijenin kütlesi (g)
X	16	24
Y	64	64
Z	32	48

Buna göre;

I. X ve Y,
II. X ve Z,
III. Y ve Z

bileşik çiftlerinden hangileri katlı oranlar yasasına uyar?

A) Yalnız I B) Yalnız II C) I ve III
D) II ve III E) I, II ve III

LİMİT YAYINLARI

TYT KİMYA SORU BANKASI

Bileşik	X'in kütlesi (g)	Bileşik kütlesi (g)
a	27	36
b	36	39
c	12	14

Yukarıdaki tabloda X'in kütlesi ve X, Y'den oluşmuş bileşik kütleleri verilmiştir.

Buna göre;

I. b'nin formülü XY ise a'nın formülü XY_4 tür.

II. b ile c arasındaki katlı oran $\frac{13}{14}$'tür.

III. Kütlece X yüzdesi en fazla olan b bileşiğidir.

yargılarından hangileri doğrudur?

A) Yalnız III B) I ve II C) I ve III
D) II ve III E) I, II ve III

Bir " LİMİT " klasiği

LİMİT YAYINLARI

2022 YKS

TYT

BENZER SORULAR

ÖSYM

KİMYA

Kükürt ve oksijen elementlerinin aşağıdaki tabloda verilen kütleleri tepkimeye girdiğinde X, Y ve Z bileşikleri oluşuyor.

Bileşik	Kükürdün kütlesi (g)	Oksijenin kütlesi (g)
X	16	24
Y	64	64
Z	32	48

Buna göre;

I. X ve Y,
II. X ve Z,
III. Y ve Z

bileşik çiftlerinden hangileri katlı oranlar yasasına uyar?

A) Yalnız I B) Yalnız II C) I ve III
D) II ve III E) I, II ve III

LİMİT YAYINLARI

TYT KİMYA SORU BANKASI

Deney	X kütlesi (g)	Y kütlesi (g)	Artan kütle (g)	Bileşik kütle (g)
1	7	18	2 gram Y	23
2	17	32	3 gram X	46

X ve Y elementlerinden oluşan bileşiğe ait bazı bilgiler tabloda verilmiştir.

Bu bilgilerden faydalanarak;

I. sabit oranlar,
II. katlı oranlar,
III. kütlenin korunumu

yasalarından hangileri kanıtlanabilir?

A) Yalnız III B) I ve II C) I ve III
D) II ve III E) I, II ve III

Bir " LİMİT " klasiği

LİMİT YAYINLARI

2022 YKS

TYT

BENZER SORULAR

ÖSYM

KİMYA

Kükürt ve oksijen elementlerinin aşağıdaki tabloda verilen kütleleri tepkimeye girdiğinde X, Y ve Z bileşikleri oluşuyor.

Bileşik	Kükürdün kütlesi (g)	Oksijenin kütlesi (g)
X	16	24
Y	64	64
Z	32	48

Buna göre;

I. X ve Y,
II. X ve Z,
III. Y ve Z

bileşik çiftlerinden hangileri katlı oranlar yasasına uyar?

A) Yalnız I B) Yalnız II C) I ve III
D) II ve III E) I, II ve III

LİMİT YAYINLARI

TYT KİMYA SORU BANKASI

Bileşik	X kütlesi (g)	Y kütlesi (g)
X_aY_b	14	8
XY_2	7	16
X_cY_d	14	40

kütleleri verilmiştir.

Buna göre aşağıda verilenlerden hangisi yanlıştır?

A) X_aY_b bileşiği X_2Y'dir.
B) X_aY_b ile XY_2 arasında katlı oran 4'tür.
C) X_cY_d bileşiği X_2Y_4 tür.
D) XY_2 ile X_cY_d arasında katlı oran $\frac{4}{5}$'tir.
E) Kütlece Y yüzdesi en fazla alan X_cY_d dir.

Bir " LİMİT " klasiği

LİMİT YAYINLARI

2022 YKS

TYT AYT

BENZER SORULAR

ÖSYM

BİYOLOJİ

Dişi üreme sisteminin kontrolünde görev alan östrojen ve progesteron hormonlarıyla ilgili aşağıdakilerden hangisi yanlıştır?

A) Östrojen ve progesteron hormonları yumurtalıklar tarafından üretilir.

B) Östrojen ve progesteron hormonlarının salgılanması FSH ve LH tarafından kontrol edilir.

C) Hem östrojen hem de progesteron, rahmin embriyo gelişimine hazırlanmasından sorumludur.

D) Östrojen ve progesteronun kanda belli bir seviyenin altına düşmesi endometriyumun parçalanmasına neden olur.

E) Döllenme gerçekleşmediğinde korpus luteumun parçalanması, östrojen ve progesteron derişiminin hızla artmasına neden olur.

LİMİT YAYINLARI

KURUMSAL TYT-AYT BİYOLOJİ SORU BANKASI

Sağlıklı bir dişide korpus luteumun bozulması aşağıdakilerden hangisine sebep olur?

A) Uterus iç duvarının kalınlaşması

B) Embriyonun plasentaya tutunması

C) Östrojen ve progesteron salgılarının azalması

D) LTH ve LH salgılarının artması

E) Dişide kısırlığın oluşması

Bir " LİMİT " klasiği

LİMİT YAYINLARI

2022 YKS

TYT

BENZER SORULAR

ÖSYM

BİYOLOJİ

Tipik bir bitki ve hayvan hücresi karşılaştırıldığında aşağıdakilerden hangisi ortak <u>değildir</u>?

A) Enerji kullanarak hücre içine molekül alma

B) Oksijen kullanarak enerji üretimi gerçekleştiren organellere sahip olma

C) Hücrede üretilen bazı maddeleri hücre dışına salgılama

D) Üzerinde ribozomlar bulunan endoplazmik retikuluma sahip olma

E) Atık ürünleri merkezi kofulda depolama

Bu soruların telif hakları ÖSYM'
hiçbir kişi, kurum

LİMİT YAYINLARI

TYT-AYT BİYOLOJİ SORU BANKASI

Bitki ve hayvan hücrelerinin ortak yapıları olduğu hâlde farklı yapıları da vardır.

Aşağıdakilerden hangisi gelişmiş bitkiler ve hayvanlar için ortak olan yapılardandır?

A) Merkezi koful

B) Lizozom

C) Peroksizom

D) Sentriyol

E) Plazmodezma

Bir " LİMİT " klasiği

LİMİT YAYINLARI

2022 YKS

TYT

BENZER SORULAR

ÖSYM

BİYOLOJİ

. Aşağıda 2*n*=4 kromozomlu bir bitki hücresinin bazı bölünme evreleri şematize edilmiştir.

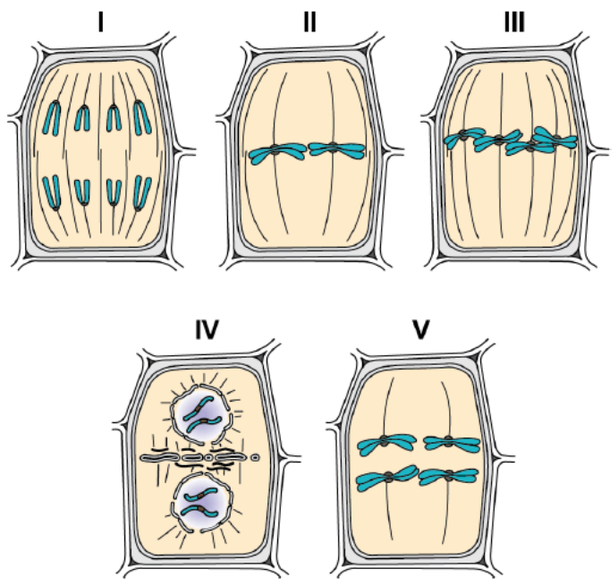

Buna göre bu evrelerden mitoz ve mayoza ait olanlar aşağıdakilerin hangisinde verilmiştir?

	Mitoz	Mayoz
A)	I, III ve V	II ve IV
B)	I ve III	II, IV ve V
C)	II ve IV	I, III ve V
D)	II, IV ve V	I ve III
E)	I ve V	II, III ve IV

LİMİT YAYINLARI

TYT-AYT BİYOLOJİ SORU BANKASI

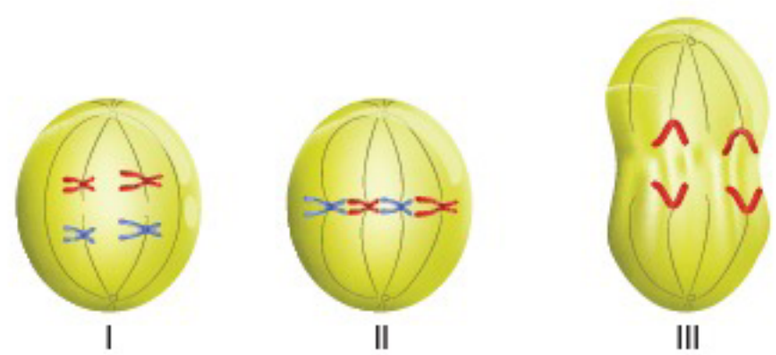

2n = 4 kromozomlu bir hücreye ait bölünme evrelerinin bazıları yukarıda verilmiştir.

Buna göre verilen şekillerden hangileri kesinlikle mayoz bölünmeye aittir?

A) Yalnız I
B) Yalnız II
C) II ve III
D) I ve III
E) I, II ve III

Bir " LİMİT " klasiği

LİMİT YAYINLARI

2022 YKS

AYT

BENZER SORULAR

ÖSYM

BİYOLOJİ

İnsanda ince bağırsaktan kana emilen işaretli bir glikoz molekülünün, en kısa yoldan beyne ulaşması sürecinde;

I. karaciğer,
II. böbrek,
III. kalp,
IV. akciğer

organlarının hangilerinden geçmesi gerekir?

A) Yalnız IV B) I ve II C) II ve III
D) I, III ve IV E) II, III ve IV

LİMİT YAYINLARI

TYT-AYT BİYOLOJİ SORU BANKASI

Bir insanın ince bağırsak boşluğuna bırakılan işaretli bir glikoz molekülü, beyne gelinceye kadar aşağıdaki damarlardan hangisinden geçmeyebilir?

A) Alt ana toplardamar B) Kapı toplardamarı
C) Akciğer atardamarı D) Karaciğer atardamarı
E) Aort

Bir " LİMİT " klasiği

2022 YKS

AYT

BENZER SORULAR

ÖSYM

LİMİT YAYINLARI

BİYOLOJİ

TYT-AYT BİYOLOJİ SORU BANKASI

Bir fizyolog, insan kanındaki hemoglobinin oksijen doygunluğunu etkileyen faktörler üzerine bir çalışma yapmış ve çalışma sonunda çizmiş olduğu grafiklerden birini aşağıdaki gibi göstermiştir.

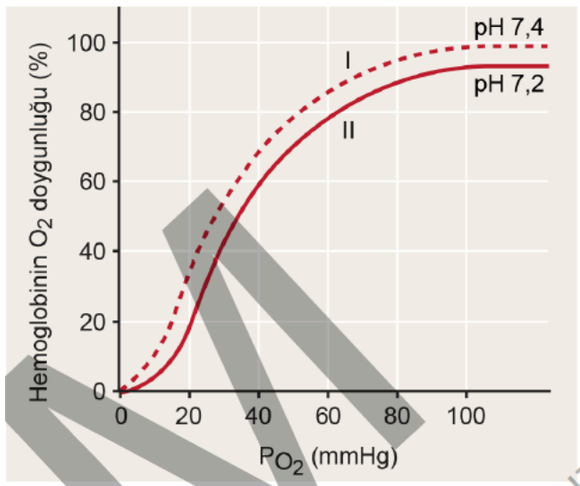

Grafikteki I numaralı eğrinin, II numaralı eğri şeklinde değişikliğe uğramasına aşağıdaki olaylardan hangisi neden olmuş olabilir?

A) Egzersiz yapan bir kişinin dinlenme durumuna geçmiş olması

B) Spor yapmak isteyen bir kişinin yürüyüş bandında bir süre koşu yapması

C) Deniz seviyesinde yaşayan bir kişinin 1500 metre yüksekliğe çıkması

D) Yaşamını yüksek kesimlerde sürdüren bir kişinin deniz seviyesine inmesi

E) Normal solunumunu sürdüren bir kişinin oksijen tüpüne bağlanarak ilave oksijen alması

Sorular ÖSYM'nin yazılı izni olmaksızın uruluş tarafından kullanılamaz.

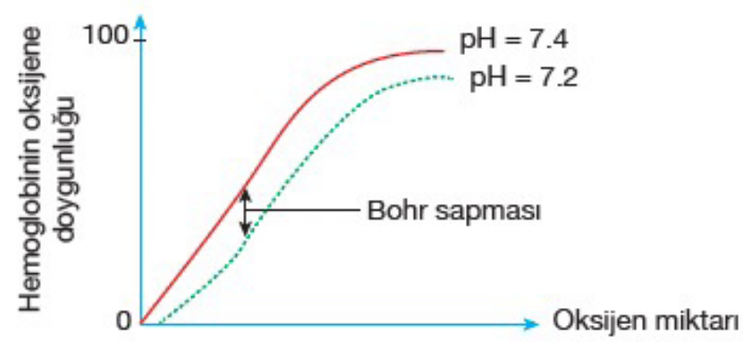

Hemoglobin bazı etkenlere karşı duyarlıdır. Örneğin PH'daki bir düşüş (CO_2 artışı) hemoglobinin oksijene ilgisini azaltır. Buna Bohr kayması denir.

Buna göre, aşağıdakilerden hangisi yanlıştır?

A) PH = 7.2'de PH = 7.4'e göre hemoglobin daha çok oksijeni serbest bırakır.

B) Çalışmakta olan dokularda bohr kayması olur.

C) Düşük pH hemoglobinin oksijene ilgisini azaltır.

D) Akciğer kılcalında PH düştüğü için bohr kayması meydana gelir.

E) CO_2 artarsa hemoglobinden ayrılan O_2 miktarı artar.

Bir “ LİMİT ” klasiği

LİMİT YAYINLARI

2022 YKS

AYT

BENZER SORULAR

ÖSYM

BİYOLOJİ

Çok yıllık bitkilerdeki primer ve sekonder büyümeyle ilgili aşağıdakilerden hangisi yanlıştır?

A) Her iki büyüme olayında meristem işlev görür.

B) Sekonder büyüme yalnız dikotil çiçekli bitkilerde görülür.

C) Her iki büyüme, bitkide eş zamanlı olarak gerçekleşebilir.

D) Bu büyüme şekilleri bitkinin farklı bölgelerinde gerçekleşebilir.

E) Primer büyüme bitkinin boyunun uzamasını, sekonder büyüme bitkinin kalınlaşmasını sağlar.

ÖSYM
akları ÖSYM'
i, kurum

LİMİT YAYINLARI

TYT-AYT BİYOLOJİ SORU BANKASI

Bitkilerde primer ve sekonder büyüme ile ilgili olarak;

I. Primer büyüme boyca uzamayı sağlar.

II. Tek çenekli bitkilerde yalnızca primer büyüme gerçekleşir.

III. Çift çenekli bitkilerde hem primer hem de sekonder büyüme gerçekleşir.

yargılarından hangileri doğrudur?

A) Yalnız I B) Yalnız II C) Yalnız III

D) II ve III E) I, II ve III

Bir " LİMİT " klasiği

LİMİT YAYINLARI

2022 YKS

AYT

BENZER SORULAR

ÖSYM

BİYOLOJİ

Gün ışığı ve diğer tüm koşulların uygun olduğu bir ortamda bir bitkinin yapraklarında bulunan stomaların açılmalarında;

I. mezofil dokudaki hava boşluklarında karbon dioksit konsantrasyonunun düşmesi,

II. bekçi hücrelerinden komşu epidermis hücrelerine potasyum iyonlarının geçişinin hızlanması,

III. bekçi hücrelerindeki turgor basıncının komşu epidermis hücrelerine göre yükselmesi

durumlarından hangileri etkilidir?

A) Yalnız I B) Yalnız II C) I ve II

D) I ve III E) II ve III

LİMİT YAYINLARI

AYT BİYOLOJİ DERS NOTLARI

5 SORU

I. Komşu epidermis hücrelerinden bekçi hücrelerine K geçmesi

II. Gündüz olması

III. Mezofil dokusundaki CO_2 miktarının artması

Yukarıda verilen olaylardan hangilerinin gerçekleşmesi stomaların açılması ile sonuçlanır?

A) Yalnız II B) I ve II C) I ve III

D) II ve III E) I, II ve III

Bir " LİMİT " klasiği

LİMİT YAYINLARI

2022 YKS

AYT

BENZER SORULAR

ÖSYM

BİYOLOJİ

Aşağıda lojistik büyüme gösteren bir popülasyona ait S tipi büyüme eğrisi verilmiştir.

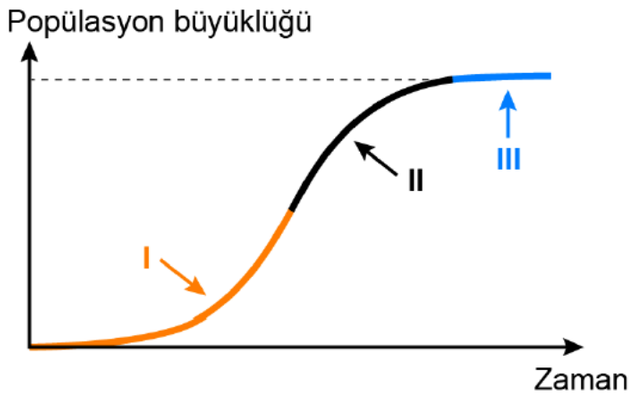

Bu grafiğe göre aşağıdakilerden hangisi söylenemez?

A) I numaralı bölgede düşük çevre direncine bağlı olarak birey sayısı hızla artar.

B) II numaralı bölgede popülasyonun büyüme hızı azalmaya başlar.

C) III numaralı bölgede popülasyondaki bireyler arasında kaynaklar için rekabetin daha fazla olması beklenir.

D) Popülasyon büyüklüğü taşıma kapasitesine yaklaştıkça büyüme yavaşlar, doğum ve ölüm oranı birbirine yaklaşır.

E) Popülasyon büyüklüğü taşıma kapasitesine yaklaştıkça çevresel direnç azalır.

LİMİT YAYINLARI

AYT BİYOLOJİ DERS NOTLARI

2 SORU

Grafikte bir popülasyonun belirli bir zaman içerisindeki büyümesi verilmiştir.

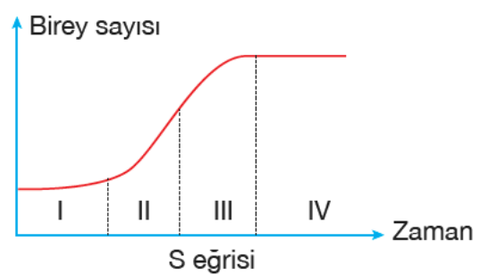

Buna göre;

a. J tipi büyüme grafiğidir.

b. I, II ve III'te büyüme gerçekleşmiştir.

c. II'deki çevre direnci III'ten fazladır.

d. Hızlı bir kuruluş evresi görülmüştür.

e. Popülasyon IV'de taşıma kapasitesine ulaşmıştır.

verilenlerden hangisi yanlıştır?

A) a ve e B) b ve c C) c ve d

D) a, c ve d E) c, d ve e

Bir " LİMİT " klasiği

LİMİT YAYINLARI

2022 YKS

TYT

BENZER SORULAR

ÖSYM

BİYOLOJİ

Aşağıdaki soyağacında X kromozomu üzerindeki çekinik bir alel tarafından kalıtılan özelliğin bir ailedeki kalıtım seyri verilmiştir.

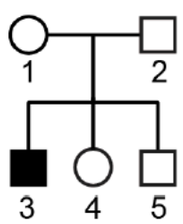

☐ Erkek ◯ Dişi

Soyağacında sadece 3 numaralı birey bu özelliği fenotipinde gösterdiğine göre özelliğin kalıtımı ile ilgili aşağıdaki ifadelerden hangisi yanlıştır?

A) 1 numaralı bireyin genotipinde bu özellikten sorumlu alel bulunur.

B) 2 numaralı bireyin genotipinde bu özellikten sorumlu alel bulunmaz.

C) 3 numaralı bireye bu özellikle ilgili alel, 2 numaralı bireyden kalıtılmıştır.

D) 4 numaralı bireyin bu özellik bakımından heterozigot genotipte olma olasılığı 1/2'dir.

E) 2 ve 5 numaralı bireylerin bu özellik bakımından genotipleri aynıdır.

ÖSYM'nin yazılı izni olmaksızın kullanılamaz.

LİMİT YAYINLARI

TYT BİYOLOJİ DERS NOTLARI

5 SORU

Renk körü, X kromozomunun Y ile homolog olmayan bölgesinde çekinik olarak aktarılan genetik bir hastalıktır.

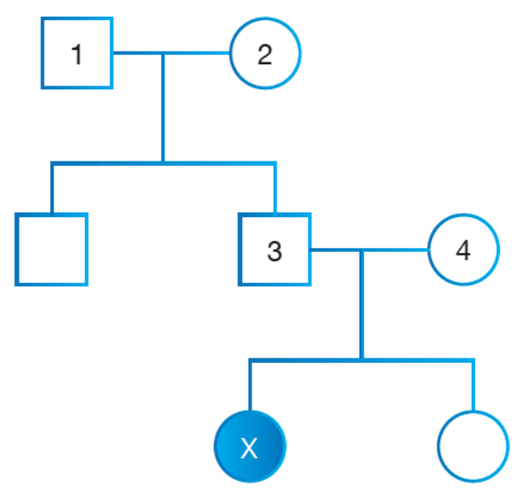

Buna göre, soyağacında taralı X bireyi renk körü hastası olduğuna göre aşağıdakilerden hangisi yanlıştır?

A) X, hastalık genini 3 ve 4 numaralı bireylerden almıştır.

B) 3 numaralı birey hastadır.

C) 1 numaralı birey X'e hastalık genini yollamıştır.

D) X, hastalık genini 2 numaralı bireyden almıştır.

E) 4 numaralı birey en az 1 hastalık geni taşımaktadır.

Bir " LİMİT " klasiği

LİMİT YAYINLARI

2022 YKS

AYT

BENZER SORULAR

ÖSYM

BİYOLOJİ

Ökaryotik bir hücrede bulunan DNA ve RNA molekülleriyle ilgili aşağıdakilerden hangisi yanlıştır?

A) DNA molekülleri iki iplikli olup bu iplikler birbirine antiparalel uzanır.

B) DNA kendini eşlerken belirli bir pirimidin bazının karşısına pürin bazlarından herhangi biri gelebilir.

C) Protein sentezinde işlev gören tüm RNA çeşitleri DNA'dan sentezlenir.

D) RNA moleküllerinin protein sentezinde işlev gören tiplerinin yanı sıra, enzim işlevi görenleri de vardır.

E) Nükleotitler, DNA ve RNA moleküllerinin yapısal birimleridir.

LİMİT YAYINLARI

AYT BİYOLOJİ DERS NOTLARI

5 SORU

DNA'ya ait olan aşağıdaki sayısal bağlantılardan hangisi RNA için de geçerlidir?

A) Toplam nükleotit sayısı, deoksiriboz sayısına eşittir.

B) Guanin nükleotit sayısı ile sitozin nükleotit sayısı eşittir.

C) Pürin bazlarının pirimindin bazlarına oranı 1'dir.

D) Pürin ve pirimidin bazlarının toplamı fosfat sayısına eşittir.

E) Toplam nükleotit sayısı ile guanin nükleotit sayısının toplamı hidrojen bağı sayısına eşittir.

Bir " LİMİT " klasiği

LİMİT YAYINLARI

2022 YKS

AYT

BENZER SORULAR

ÖSYM

BİYOLOJİ

Mantarlar aleminde yer alan canlılarda aşağıdaki özelliklerden hangisi ortak <u>değildir</u>?

A) Hücrelerinde çekirdek zarına sahip olma

B) Heterotrof beslenme

C) Hücre duvarına sahip olma

D) Çok hücreli olma

E) Hücrelerinde organellere sahip olma

Sorular ÖSYM'nin yazılı izni olmaksızın rafından kullanılamaz.

LİMİT YAYINLARI

TYT BİYOLOJİ DENEMELERİ

Mantarlar âlemi içerisinde yer alan bir canlıda aşağıdaki özelliklerden hangisinin görülmesi <u>beklenmez</u>?

A) Tomurcuklanma ile üreme

B) Kitin yapılı hücre çeperine sahip olma

C) Çok hücreli olma

D) Kemootrof beslenme

E) Spor oluşturabilme